更多警察、警大考試歷屆考古題庫懶人包免費下載，請上網搜尋“警察考試題庫懶人包”
高見公職・警察考試補習班整理

107年公務人員特種考試警察人員、一般警察人員考試及 107年特種考試交通事業鐵路人員考試試題

代號：30150-30750 50140-51440 70150-70650 全一張（正面）

考 試 別：一般警察人員考試、警察人員考試、鐵路人員考試
等　　別：三等考試、高員三級考試
類 科 別：各類科、各類別
科　　目：國文（作文、公文與測驗）
考試時間：2 小時　　座號：＿＿＿＿＿＿

※注意：禁止使用電子計算器。

甲、作文與公文部分：

㈠請以藍、黑色鋼筆或原子筆在申論試卷上由左至右橫式作答，於本試題上作答者，不予計分。
㈡不得於試卷上書寫姓名或入場證號。

一、作文：（60 分）

春秋時期，宋國有人得到璞玉，把它獻給司城子罕，子罕卻不接受，說道：「我以不貪為寶，你以璞玉為寶，你若把璞玉送我，而我接受，我們便都失去了珍寶，還不如各自擁有原來的珍寶。」子罕的話透示了「拒絕」與「接受」的深義。試以「拒絕與接受」為題，作文一篇，闡述子罕言辭的深義，並抒發自己的感悟。

二、公文：（20 分）

鐵路地下化為國家重大建設計畫，對於都市更新與發展、區域交通順暢與安全，都有莫大助益。交通部鐵路改建工程局為進行臺南市鐵路地下化工程，自本（107）年 6 月 15 日起，連續三個月執行下開工程：1、續施作電車線設備安裝；2、號誌現場設置及佈纜；3、第一工區（榮譽街平交道南側）構造物保護 ccp 施工；4、第五工區（空勤司令部至大林路平交道間）連續壁施工；5、第六工區（大林路平交道以南至亞航社區間）排水箱涵施工。上述工程，短期勢必影響交通，乃函請臺南市政府警察局於上下班尖峰時段，增派交通警察，在前開地區維持交通秩序，保障民眾用路之安全順暢。試擬此函。

乙、測驗部分：（20 分）

代號：5301、4501

㈠本測驗試題為單一選擇題，請選出一個正確或最適當的答案，複選作答者，該題不予計分。
㈡共 10 題，每題 2 分，須用 2B 鉛筆在試卡上依題號清楚劃記，於本試題或申論試卷上作答者，不予計分。

1. 電話應對或傳送簡訊是現代社會常見的溝通方式，下列電話或簡訊用語，恰當且合乎禮儀的選項是：
(A)接聽客訴電話：對不起，這事我不清楚，請找別的單位
(B)接聽電話：某某公司，您好！我是林小姐，很高興為您服務
(C)指定人不在：對不起，承辦人不在座位上，稍後再請他回電給您
(D)傳簡訊：敝人昨日榮膺新職，調任為業務組長，請各位繼續鞭策指教

2. 下列語詞使用，正確的是：
(A)令媛出門在外，希望自己保重，這是拙荊給她的一點心意
(B)青青和小犬都是蔡教授的高足，受蔡教授指導，獲益良多
(C)先嚴在世時侍奉公婆，照顧丈夫，和睦妯娌，是稱職媳婦
(D)令伉儷在業界素有美譽，賢郎可謂青出於藍，勝過寒舍公子

3. 下列選項，何者屬於道家的思想？
(A)自其異者視之，肝膽楚越也；自其同者視之，萬物皆一也
(B)必將有師法之化，禮義之道，然後出於辭讓，合於文理而歸於治
(C)馬固有色，故有白馬。使馬無色，有馬如已耳，安取白馬？故白者非馬也
(D)聖人之所以濟事成功，垂名於後世者，無他故異物焉，曰唯能以尚同為政者也

4. 「人越有名，即使自己不驕傲，別人也會覺得你有驕傲之感，這是常情，故我們更要謙和有禮。」此段文字旨在說明：
(A)豹死留皮，人死留名　　(B)知識愈淺，自信愈深
(C)念高危，則思謙沖而自牧　　(D)強中更有強中手，莫向人前自誇口

（請接背面）

考 試 別：一般警察人員考試、警察人員考試、鐵路人員考試
等　　別：三等考試、高員三級考試
類 科 別：各類科、各類別
科　　目：國文（作文、公文與測驗）

5. 買不起豆腐的人對那賣豆腐的，就非常的羨慕，一聽了那從街口越招呼越近的聲音就特別的感到誘惑，假若能吃一塊豆腐可不錯，切上一點青辣椒，拌上一點小葱子。但是天天這樣想，天天就沒有買成，賣豆腐的一來，就把這等人白白的引誘一場。於是那被誘惑的人，仍然逗不起決心，就多吃幾口辣椒，辣得滿頭是汗。他想假若一個人開了一個豆腐房可不錯，那就可以自由隨便的吃豆腐了。果然，他的兒子長到五歲的時候，問他：「你長大了幹什麼？」五歲的孩子說：「開豆腐房。」這顯然是繼承他父親未遂的志願。
關於豆腐這美妙的一盤菜的愛好，竟還有甚於此的，竟有想要傾家蕩產的。傳說上，有這樣的一個家長，他下了決心，他說：「不過了，買一塊豆腐吃去！」這「不過了」的三個字，用舊的語言來翻譯，就是毀家紓難的意思；用現代的話來說，就是：「我破產了！」
下列選項與上文意旨最為接近的是：
(A)豆腐是人類最偉大的發明　(B)想像的力量勝過真正擁有
(C)食物的魅力往往難以估量　(D)未遂的志願記得傳承下去

6. 只聽賣貨人答道：「既承照顧，敢不仰體！但適才妄討大價，已覺厚顏；不意老兄反說貨高價賤，豈不更教小弟慚愧？況敝貨並非『言無二價』，其中頗有虛頭。俗云：『漫天要價，就地還錢』，今老兄不但不減，反要加增，如此克己，只好請到別家交易，小弟實難遵命。」
根據上文，下列選項何者符合文意？
(A)賣貨人惜售，捨不得割愛於買貨人　(B)賣貨人漫天索價，買貨人不以為然
(C)買貨人出高價，賣貨人不好意思賣　(D)買貨人討價還價，賣貨人婉拒交易

7. 「橋真是奇妙的東西。它架在兩岸，原為過渡而設，但是人上了橋，卻不急於趕赴對岸，反而耽賞風景起來。原來是道路，卻變成了看台，不但可以仰天俯水，縱覽兩岸，還可以看看停停，從容漫步。愛橋的人沒有一個不恨其短的，最好是永遠走不到頭，讓重噸的魁梧把你凌空托在波上，背後的岸追不到你，前面的岸也捉你不著。於是你超然世外，不為物拘，簡直是以橋為鞍，騎在一匹河的背上。河乃時間之隱喻，不舍晝夜，又為逝者之別名。然而逝去的是水，不是河。自其變者而觀之，河乃時間；自其不變者而觀之，河又似乎永恆。橋上人觀之不厭的，也許就是這逝而猶在、常而恆遷的生命。而橋，兩頭抓住逃不走的岸，中間放走抓不住的河，這件事的意義，形而上的可供玄學家去苦思，形而下的不妨任詩人來歌詠。」
下列選項何者與本文意旨最符合？
(A)橋節省了往來交通的時間　(B)橋是跨越障礙險阻的象徵
(C)橋的堅固使人安心地賞景　(D)橋的空間讓人觀覽、思索

8. 大兒走四方，僅可糊其口。次兒名讀書，清饞只好酒。三兒惟嬉遊，性命在朋友。四兒好志氣，大言不怩忸。二穉更善啼，牽衣索菱藕。老人筋力衰，知有來年否。兒輩慕功名，撇我若敝帚。持此一管筆，思人麟鳳藪。阿堵與薦剡，均非爾所有。不若且歸來，父子得聚首。
以上詩句最主要的是在表達：
(A)父恨子不成鋼　(B)父以六子為榮　(C)父子代溝甚巨　(D)父思念子甚深

9. 昔日戲言身後意，今朝皆到眼前來。衣裳已施行看盡，針線猶存未忍開。尚想舊情憐婢僕，也曾因夢送錢財。誠知此恨人人有，貧賤夫妻百事哀。（元稹〈遣悲懷〉三之二）
詩中所說的「此恨」是指：
(A)貧窮之憂　(B)死別之痛　(C)生離之愁　(D)卑賤之苦

10. 番薯種自番邦來，功均粒食亦奇哉。島人充飧兼釀酒，奴視山藥與芋魁。根蔓莖葉皆可啖，歲凶直能救天災。奈何苦歲又苦兵，遍地薯空不留荄。島人泣訴主將前，反嗔細事浪喧豗；加之責罰罄其財，萬家饑死孰肯哀。嗚呼！萬家饑死孰肯哀！（盧若騰〈蕃薯謠〉）
下列選項何者最符合作者所批評的現象？
(A)暴斂橫徵　(B)旱魃為虐　(C)酗酒誤政　(D)不知民間疾苦

測驗式試題標準答案

考試名稱：１０７年公務人員特種考試警察人員、一般警察人員考試及１０７年特種考試交通事業鐵路人員考試

類科名稱：交通警察人員電訊組、警察資訊管理人員、警察法制人員、行政管理人員、刑事鑑識人員、行政警察人員、公共安全人員、國境警察人員、交通警察人員交通組、外事警察人員（選試英語）、刑事警察人員、消防警察人員、水上警察人員、犯罪防治人員預防組

科目名稱：國文（作文、公文與測驗）（試題代號：4501）

單選題數：10題　　單選每題配分：2.00分

複選題數：　　複選每題配分：

標準答案：

題號	第1題	第2題	第3題	第4題	第5題	第6題	第7題	第8題	第9題	第10題
答案	C	A	A	C	C	C	D	D	B	A

題號	第11題	第12題	第13題	第14題	第15題	第16題	第17題	第18題	第19題	第20題
答案										

題號	第21題	第22題	第23題	第24題	第25題	第26題	第27題	第28題	第29題	第30題
答案										

題號	第31題	第32題	第33題	第34題	第35題	第36題	第37題	第38題	第39題	第40題
答案										

題號	第41題	第42題	第43題	第44題	第45題	第46題	第47題	第48題	第49題	第50題
答案										

題號	第51題	第52題	第53題	第54題	第55題	第56題	第57題	第58題	第59題	第60題
答案										

題號	第61題	第62題	第63題	第64題	第65題	第66題	第67題	第68題	第69題	第70題
答案										

題號	第71題	第72題	第73題	第74題	第75題	第76題	第77題	第78題	第79題	第80題
答案										

題號	第81題	第82題	第83題	第84題	第85題	第86題	第87題	第88題	第89題	第90題
答案										

題號	第91題	第92題	第93題	第94題	第95題	第96題	第97題	第98題	第99題	第100題
答案										

備　　註：更多警察、警大考試歷屆考古題庫懶人包免費下載，請上網搜尋〝警察考試題庫懶人包〞
高見公職・警察考試補習班整理

更多警察、警大考試歷屆考古題庫懶人包免費下載，請上網搜尋“警察考試題庫懶人包”
高見公職・警察考試補習班整理

107年公務人員特種考試警察人員、一般警察人員考試及 107年特種考試交通事業鐵路人員考試試題

代號：50110-50510
50710-51110
51310-51410
頁次：6－1

考試別：警察人員考試
等　別：三等考試
類科別：行政警察人員、外事警察人員（選試英語）、刑事警察人員、公共安全人員、犯罪防治人員預防組、交通警察人員交通組、交通警察人員電訊組、警察資訊管理人員、刑事鑑識人員、國境警察人員、警察法制人員、行政管理人員
科　目：中華民國憲法與警察專業英文
考試時間：2小時　　座號：_____

※注意：禁止使用電子計算器。

甲、申論題部分：（25分）
㈠不必抄題，作答時請將試題題號及答案依照順序寫在申論試卷上，於本試題上作答者，不予計分。
㈡請以藍、黑色鋼筆或原子筆在申論試卷上作答。

一、中翻英：（10分）

有經驗的警員都知道有效溝通的重要性，所以警員都必須知道如何溝通以達成幫民眾解決問題的目標。

二、英文作文：（15分）

當一個人進入警察人員這個體制後，常會面臨家庭和社會所帶來的壓力。請以一篇長150-200字的短文，敘述你若當了警察以後，會如何面對家庭或社會（含一般民眾）可能帶來的壓力。

乙、測驗題部分：（75分）　　代號：1501
㈠本試題為單一選擇題，請選出一個正確或最適當的答案，複選作答者，該題不予計分。
㈡共60題，每題1.25分，須用2B鉛筆在試卡上依題號清楚劃記，於本試題或申論試卷上作答者，不予計分。

1 依憲法本文之規定，下列何者為專屬「中央立法並執行」之事項？
(A)教育制度　(B)警察制度　(C)公共衛生　(D)度量衡

2 依憲法增修條文第9條之規定，有關省之規定，下列何者正確？
(A)省主席由省民選舉之
(B)「省諮議會議員」暨「省政府委員」皆由行政院院長提請總統任命之
(C)省政府委員由省主席任命之
(D)省主席任期6年

3 臺北市政府訂定臺北市產業發展獎勵補助辦法，並發布之。此辦法之性質為何？
(A)法律　(B)行政規則　(C)自治條例　(D)自治規則

4 地方自治團體立法機關議決事項無效者，下列敘述何者有誤？
(A)直轄市議會議決事項由立法院予以函告
(B)縣議會議決事項由中央各該主管機關予以函告
(C)鄉民代表會議決事項由縣政府予以函告
(D)議決自治事項與憲法、法律等規章有無牴觸發生疑義時，得聲請司法院解釋

更多警察、警大考試歷屆考古題庫懶人包免費下載，請上網搜尋〝警察考試題庫懶人包〞

高見公職・警察考試補習班整理

5 依憲法增修條文第 10 條之規定，下列經費支出，何者無須優先編列？
(A)社會救助之救濟性支出 (B)國民就業之救濟性支出
(C)國民教育之經費 (D)中小型經濟事業之補助經費

6 依憲法規定，行政機關發布之行政命令，若與憲法牴觸時，其效果為何？
(A)無效 (B)得撤銷 (C)效力未定 (D)得補正

7 關於人身自由之敘述，下列何者正確？
(A)非經司法或警察機關依法定程序，不得逮捕拘禁
(B)非經司法或警察機關依法定程序，不得審問處罰
(C)人民受合法逮捕時，不得聲請法院向逮捕之機關提審
(D)人民被非法逮捕拘禁時，法院應即主動追究，不得拖延

8 銓敘部發函各機關，要求組考績委員會時，委員之任一性別比例原則上不得低於三分之一，此一函釋最直接涉及人民之何種基本權利？
(A)參政權 (B)平等權 (C)言論自由 (D)結社自由

9 依司法院釋字第 436 號解釋意旨，對現役軍人之犯罪行為得設軍事審判之特別訴訟程序，主要係基於下列何項理由？
(A)避免軍人專政 (B)強化軍人服從觀念 (C)反恐與國土安全 (D)國家安全與軍事需要

10 依司法院釋字第 535 號解釋之意旨，大法官認為警察機關執行臨檢所影響人民之權利，不包含下列何種權利？
(A)言論自由 (B)行動自由 (C)財產權 (D)隱私權

11 依司法院大法官解釋之意旨，有關人民居住遷徙自由，下列敘述何者錯誤？
(A)居住遷徙自由不包括出國之自由 (B)居住遷徙自由保障本國人入國之權利
(C)國家不得將國民驅逐出境 (D)人民之居住遷徙自由得以法律限制之

12 依司法院釋字第 490 號解釋意旨，宗教行為自由與宗教結社自由，在必要之最小限度內，仍應受下列何者之約束？
(A)地方議會決議 (B)行政命令 (C)國家相關法律 (D)習慣

13 依司法院釋字第 573 號解釋，有關宗教自由之敘述，下列何者錯誤？
(A)宗教自由係指人民有信仰與不信仰任何宗教之自由
(B)宗教自由之保障範圍包含內在信仰之自由、宗教行為之自由與宗教結社之自由
(C)國家基於保護特定宗教之發展，得對於特定宗教加以獎勵或給予優待
(D)宗教團體之內部組織結構、人事及財政管理應有自主權

14 依現行法規及大法官解釋意旨，關於集會遊行自由之敘述，下列何者正確？
(A)集會自由不分舉行之場地，都必須向警察主管機關申請或報備
(B)集會遊行應以和平方式為之
(C)集會自由權是基於自決原則與共和原則而成立
(D)多數人佇立於街頭欣賞街頭藝人表演，亦屬於集會，因此街頭藝人表演必須得到許可

15 關於徵收人民之財產，下列敘述何者錯誤？
(A)此為被徵收人為公共利益所受之特別犧牲
(B)國家如對被徵收人給予補償即不違憲
(C)立法機關對徵收補償之方法，有一定之自由形成空間
(D)徵收補償與國家賠償之依據不同

16 依司法院大法官相關解釋，對服公職權或職業自由之限制，下列何者係屬違憲？
(A)曾犯搶奪強盜罪經判決確定，不得為營業小客車駕駛
(B)公務員離職後 3 年內，不得任與先前職務直接相關之營利事業董事
(C)行為不檢有損師道之教師，得予以解聘或不續聘
(D)非視覺功能障礙之人，不得從事按摩業

更多警察、警大考試歷屆考古題庫懶人包免費下載，請上網搜尋〝警察考試題庫懶人包〞
高見公職・警察考試補習班整理

17 依司法院大法官解釋意旨，關於平等原則之敘述，下列何者錯誤？
(A)平等原則強調國家權力作用之恣意禁止 (B)平等原則皆禁止優惠性差別待遇
(C)平等原則強調等則等之、不等則不等之 (D)平等原則涉及法律對於體系正義之要求

18 下列有關契約自由之敘述，何者錯誤？
(A)契約自由是民事法之基本法理，屬法律上權利
(B)契約自由是憲法第 22 條所規定的非列舉權利，亦受憲法之保障
(C)契約自由也可能涉及結社自由
(D)契約自由也可能與職業自由有關

19 「國防部國軍志願役專業預備軍士官班考選簡章」曾規定，受刑之宣告者不得報考。司法院釋字第 715 號解釋宣告此規定違憲，其理由為何？
(A)侵害人民職業自由 (B)違反法律保留原則 (C)違反平等原則 (D)違反比例原則

20 依國家賠償法第 12 條規定，損害賠償之訴除依本法規定外，適用下列何者之規定？
(A)行政訴訟法 (B)行政執行法 (C)刑事訴訟法 (D)民事訴訟法

21 憲法第 23 條規定「以上各條列舉之自由權利，除為防止妨礙他人自由，避免緊急危難，維持社會秩序或增進公共利益所必要者外，不得以法律限制之」，條文中所謂之「…必要者外，…」，依司法院大法官解釋，此所指為何？
(A)平等原則 (B)比例原則 (C)法律保留原則 (D)法律明確性原則

22 依司法院釋字第 517 號解釋意旨，關於兵役制度及其相關之兵員召集、徵集如何實施，下列敘述何者正確？
(A)行政機關得以職權命令訂定之 (B)由立法機關以法律定之
(C)行政機關得以行政規則訂定之 (D)憲法已明文規定

23 下列何者，我國憲法明定其兼具有人民「基本權利與基本義務」之雙重性質：
(A)服公職 (B)納稅 (C)服兵役 (D)受國民教育

24 關於公職人員之罷免，下列敘述何者錯誤？
(A)公職人員不論就職多久均得對其提出罷免
(B)全國不分區立法委員選舉之當選人不得罷免
(C)公職人員之罷免，得由原選舉區選舉人向選舉委員會提出罷免案
(D)公職人員罷免，由原選舉區之選舉人以無記名投票決定

25 下列關於國家安全會議之敘述，何者正確？
(A)國家安全會議設於行政院下，為總統之諮詢機關
(B)國家安全會議秘書長為國家安全會議之列席人員
(C)國家安全會議之決議，僅作為總統決策之參考
(D)國家安全會議及其所屬國家安全局，不受立法院之監督

26 下列何人發生缺位時，應由總統提名候選人，並由立法院補選產生，繼任至原任期屆滿為止？
(A)副總統 (B)行政院院長 (C)立法院院長 (D)司法院院長

27 有關總統刑事豁免權之敘述，下列何者正確？
(A)現職總統競選連任時，其競選活動受總統副總統選舉罷免法有關規定之規範，無法主張憲法第 52 條之刑事豁免權
(B)副總統為總統之備位，憲法有關總統刑事豁免權之規定於副總統亦有適用
(C)基於憲法第 52 條刑事豁免權之規定，法院對於以總統為被告之刑事案件，仍得受理起訴，但停止審判
(D)檢察機關因他人刑事案件之偵查，發現總統有犯罪嫌疑者，為避免證據湮滅，得為必要之證據保全程序，但不得限制總統之人身自由或妨礙其職權之行使

更多警察、警大考試歷屆考古題庫懶人包免費下載，請上網搜尋〝警察考試題庫懶人包〞
高見公職・警察考試補習班整理

28 下列何者非屬憲法所賦予總統之職權？
(A)國家安全大政方針決定權
(B)緊急命令權
(C)核駁行政院院長向立法院所提法律案覆議之權
(D)核駁行政院院會決議之權

29 依現行憲法增修條文之規定，應以下列何種方式，對行政院院長提出不信任案？
(A)立法院院長之提議 (B)立法院全體立法委員三分之一以上連署
(C)立法院委員會之決議 (D)監察院之移送

30 依司法院釋字第 613 號解釋意旨，關於獨立機關之敘述，下列何者錯誤？
(A)獨立機關依據法律獨立行使職權，自主運作，對於責任政治毫無減損
(B)立法院得經由立法設置獨立機關，將原行政院所掌理特定領域之行政事務劃歸獨立機關行使
(C)獨立機關設立的目的係在法律規定範圍內，排除上級機關對具體個案決定之指揮與監督
(D)對於獨立機關之委員有違法情事，而情節重大，行政院院長得行使最低限度人事監督權

31 行政院得經總統之核可，將下列何者移請立法院覆議？
(A)戒嚴案 (B)大赦案 (C)條約案 (D)宣戰案

32 依據憲法本文規定，下列何者有法律案提案權？
(A)總統 (B)考試院 (C)司法院 (D)監察院

33 關於立法委員之敘述，下列何者錯誤？
(A)立法委員不得擔任行政機關首長
(B)立法委員所為之一切言論，對院外不負責任
(C)立法委員為現行犯時，不須經立法院許可，得逮捕之
(D)對立法委員之拘禁，會期中應經立法院許可

34 依憲法增修條文及立法院職權行使法相關規定，下列敘述何者正確？
(A)司法院大法官審理並提出總統彈劾案，經立法院決議通過後彈劾成立
(B)立法院提出領土變更案，經自由地區選舉人投票複決通過後生效
(C)自由地區選舉人投票提出總統罷免案，經立法院決議通過後罷免成立
(D)總統經行政院會議決議發布緊急命令，經立法院追認後生效

35 依憲法增修條文第 4 條之規定，下列敘述何者正確？
(A)立法院立法委員自第 7 屆起 113 人，任期 3 年，連選得連任
(B)立法院於每年集會時，得聽取總統國情報告
(C)立法院經總統解散後，在新選出之立法委員就職前，視同未休會
(D)全國不分區及僑居國外國民共 34 人，由政黨名單投票選舉之，由獲得 3%以上政黨選舉票之政黨依得票比率選出之

36 關於大法官之敘述，下列何者正確？
(A)司法院組織法第 4 條第 1 項設定不同資格，該資格之認定，以任命之日為準
(B)司法院之院長、副院長並為大法官，但不受任期 8 年之保障
(C)大法官之組成應考量性別平等，單一性別不得超過三分之二
(D)民國 92 年總統提名之大法官，任期均為 8 年

37 原藥師法第 11 條規定，藥師經登記領照執業者，其執業處所應以一處為限，未設任何例外規定，被司法院大法官宣告違反下列何種原則？
(A)明確性原則 (B)比例原則 (C)平等原則 (D)法律保留原則

更多警察、警大考試歷屆考古題庫懶人包免費下載，請上網搜尋“警察考試題庫懶人包”
高見公職・警察考試補習班整理

38 依司法院大法官審理案件法第 5 條之規定，關於聲請解釋憲法之事由，下列敘述何者正確？
(A)中央或地方機關，於其行使職權，適用憲法發生疑義，或因行使職權與其他機關之職權，發生適用憲法之爭議，或適用法律與命令發生有牴觸憲法之疑義者
(B)人民或法人於其憲法上所保障之權利，遭受不法侵害，經依法定程序提起訴訟，對於確定終局裁判發生有牴觸憲法之疑義者
(C)依立法委員現有總額 1/4 以上之聲請，就其行使職權，適用憲法發生疑義，或適用法律發生有牴觸憲法之疑義者
(D)各級法院就其受理之案件，對所適用之法律或命令，確信有牴觸憲法之疑義時，得以判決停止訴訟程序，聲請大法官解釋

39 下列有關大法官解釋案件程序之敘述，何者錯誤？
(A)大法官解釋案件，應參考制憲、修憲及立法資料
(B)得依請求或逕行通知聲請人、關係人及有關機關說明
(C)得行言詞辯論
(D)應有強制代理制度

40 依司法院釋字第 547 號解釋，醫師屬於下列何種資格之人員？
(A)公職人員 (B)軍職人員 (C)技術人員 (D)專門職業人員

41 Officers shall not consume any intoxicating beverage while on _____ unless authorized by a supervisor.
(A)responsibility (B)accountability (C)capability (D)duty

42 A car driver who causes a car accident may face civil and criminal _____, depending on the circumstances.
(A)assaults (B)licenses (C)penalties (D)opposites

43 The exception derives from the interests in officer safety and evidence _____ that are typically implicated in arrest situation.
(A)preservation (B)prevention (C)distraction (D)distribution

44 _____ is a formal written accusation of a crime, which is presented to a court for prosecution against the accused person.
(A)Indictment (B)Conviction (C)Subpoena (D)Summon

45 A new form of identification relies on DNA, which carries the _____ information of each person.
(A)electric (B)genetic (C)psychological (D)mental

46 Officials said that diplomats do not enjoy _____ from criminal prosecution on charges of visa fraud.
(A)immobility (B)impediment (C)imminence (D)immunity

47 The mission of the prison is to protect society by _____ offenders in the controlled environments of prisons.
(A)confusing (B)confining (C)combining (D)combating

48 During the execution of the warrant, officer must prepare an inventory and verify the property _____, and may retain a copy.
(A)arrested (B)terminated (C)seized (D)decoded

49 After the 911 _____ attacks in the U.S., the homeland security studies have been initiated.
(A)terrorist (B)scooterist (C)psychiatrist (D)tourist

50 It is dangerous. Do not _____ the fire scene.
(A)exhibit (B)approve (C)prohibit (D)approach

51 The police officer in that case stopped a _____ car. The limit over there is 60MPH.
(A)steering (B)driving (C)boarding (D)speeding

更多警察、警大考試歷屆考古題庫懶人包免費下載，請上網搜尋〝警察考試題庫懶人包〞
高見公職・警察考試補習班整理

請依下文回答第 52 題至第 55 題：

The legal doctrine of **false light** addresses people's right to not have false or misleading information, which puts them in a **false light**, made public. In other words, **it** deals with the invasion of a person's privacy by disseminating false or misleading information, rather than the gathering of information through invasion of privacy.

Walter leaves his position on the City Council to care for his wife, who has serious health problems. The small town's local newspaper prints a story about Walter's resignation, alluding to "anonymous sources" reporting Walter was a little too friendly with the administrative assistants and other women at the office. This led to talk about whether Walter had an affair. Walter, who is certainly friendly with *everyone* at the office, never had an affair, and is terribly embarrassed and indignant over the incident, and the damage to his reputation.

Because the newspaper disclosed information that painted Walter in a **false light**, he may choose to file a civil lawsuit under the tort of **false light**. In this case, the misleading information was published in the town newspaper, intentionally, with reckless disregard for the falsity of the information, in exchange for higher readership.

52 What is the purpose of the passage?
(A)To demonstrate the power of mass media. (B)To describe the personality of the victim.
(C)To analyze how an affair may happen. (D)To explain a legal concept.

53 What does **false light** mean?
(A)Publication of incorrect information. (B)Reporting news without permission.
(C)Collection of erotic photos. (D)Protecting personal privacy.

54 What does **it** in the second sentence refer to?
(A)Misleading information. (B)The legal doctrine.
(C)People's right. (D)The public.

55 According to the passage, which is true about Walter?
(A)He is a caring husband. (B)He loves to share information.
(C)He is the most popular person in the office. (D)He has been fighting against the newspaper.

請依下文回答第 56 題至第 60 題：

Juvenile delinquents are often defined as children between the ages of 10 and 17 who have committed a criminal act. There are two main types of offenders: repeat offenders and age-specific offenders. Repeat offenders are also known as "life-course __56__ offenders." These juvenile delinquents begin offending or showing other signs of antisocial behavior during adolescence. Repeat offenders continue to engage in criminal activities or aggressive behaviors __57__ after they enter adulthood. The other type of juvenile delinquent behavior, age-specific offenders, begins during adolescence. __58__ the repeat offenders, however, the behaviors of the age-specific offender ends before the minor becomes an adult. The behaviors that a juvenile shows during adolescence are often a good __59__ of the type of offender he will become. While age-specific offenders leave their delinquent behavior behind __60__ they enter adulthood, they often have more mental health problems, engage in substance abuse, and have greater financial problems than adults who were never delinquent as juveniles.

56 (A)imminent (B)persistent (C)civilian (D)humble
57 (A)quite (B)never (C)even (D)over
58 (A)To (B)For (C)Beside (D)Unlike
59 (A)indicator (B)example (C)decision (D)principle
60 (A)because (B)unless (C)when (D)or

測驗式試題標準答案

考試名稱：１０７年公務人員特種考試警察人員、一般警察人員考試及１０７年特種考試交通事業鐵路人員考試

類科名稱：公共安全人員、交通警察人員電訊組、刑事警察人員、外事警察人員（選試英語）、警察法制人員、交通警察人員交通組、刑事鑑識人員、犯罪防治人員預防組、行政管理人員、行政警察人員、警察資訊管理人員、國境警察人員

科目名稱：中華民國憲法與警察專業英文（試題代號：1501）

單選題數：60題　　單選每題配分：1.25分

複選題數：　　複選每題配分：

標準答案：

題號	第1題	第2題	第3題	第4題	第5題	第6題	第7題	第8題	第9題	第10題
答案	D	B	D	A	D	A	A	B	D	A

題號	第11題	第12題	第13題	第14題	第15題	第16題	第17題	第18題	第19題	第20題
答案	A	C	C	B	B	D	B	A	D	D

題號	第21題	第22題	第23題	第24題	第25題	第26題	第27題	第28題	第29題	第30題
答案	B	B	D	A	C	A	D	D	B	A

題號	第31題	第32題	第33題	第34題	第35題	第36題	第37題	第38題	第39題	第40題
答案	C	B	B	B	B	B	B	A	D	D

題號	第41題	第42題	第43題	第44題	第45題	第46題	第47題	第48題	第49題	第50題
答案	D	C	A	A	B	D	B	C	A	D

題號	第51題	第52題	第53題	第54題	第55題	第56題	第57題	第58題	第59題	第60題
答案	D	D	A	B	A	B	C	D	A	C

題號	第61題	第62題	第63題	第64題	第65題	第66題	第67題	第68題	第69題	第70題
答案										

題號	第71題	第72題	第73題	第74題	第75題	第76題	第77題	第78題	第79題	第80題
答案										

題號	第81題	第82題	第83題	第84題	第85題	第86題	第87題	第88題	第89題	第90題
答案										

題號	第91題	第92題	第93題	第94題	第95題	第96題	第97題	第98題	第99題	第100題
答案										

備　　註：

更多警察、警大考試歷屆考古題庫懶人包免費下載，請上網搜尋〝警察考試題庫懶人包〞
高見公職・警察考試補習班整理

代號：50160-50560
50760-50960
51160
51360-51460
頁次：4－1

107年公務人員特種考試警察人員、一般警察人員考試及107年特種考試交通事業鐵路人員考試試題

考 試 別：警察人員考試
等　　別：三等考試
類 科 別：行政警察人員、外事警察人員（選試英語）、刑事警察人員、公共安全人員、犯罪防治人員預防組、交通警察人員交通組、交通警察人員電訊組、警察資訊管理人員、國境警察人員、警察法制人員、行政管理人員
科　　目：警察法規（包括警察法、行政執行法、社會秩序維護法、警械使用條例、集會遊行法、警察職權行使法、公務人員行政中立法）
考試時間：2小時　　座號：＿＿＿＿＿＿

※注意：禁止使用電子計算器。

甲、申論題部分：（50分）

㈠不必抄題，作答時請將試題題號及答案依照順序寫在申論試卷上，於本試題上作答者，不予計分。
㈡請以藍、黑色鋼筆或原子筆在申論試卷上作答。
㈢本科目除專門名詞或數理公式外，應使用本國文字作答。

一、甲於某日白天在街上行走時，因持有狹長布袋，遭警察攔查詢問身分，並經警察要求後自行打開一線布袋拉鍊，露出布袋內藏有鐵製品，警察再要求甲自行拿出後，始發現係一把西瓜刀及一支信號彈，但甲堅不說明持有該二項物品作何用途，警察乃決定將甲依法處理。

請問：

㈠警察依社會秩序維護法，在程序上應移送簡易庭或可自行裁處？理由為何？（9分）
㈡依社會秩序維護法，甲可能受何處分？理由為何？（8分）
㈢依社會秩序維護法，甲持有西瓜刀及信號彈可能遭受何種處分？理由為何？（8分）

二、警員A於某日夜晚的巷內道路上，發現機車騎士甲，走走停停不斷觀望來回徘徊，感覺可疑，乃騎警用機車超前將其攔停，查證身分。查證後發現甲係有前科紀錄的濫用藥物人，且剛出獄不足二個月。警員 A 乃要求甲讓其看其所攜帶之手提包，甲不肯，詢問：「為何可以看我的手提包？」警員 A 見甲不肯打開手提包，愈發懷疑甲手提包內藏有可疑物品，因此不讓甲離開，雙方在現場僵持達三小時之久。

請問：

㈠警員A所為之攔停與查證身分行為，是否合法？理由為何？（8分）
㈡警員A攔停並經查證身分後，若甲不願出示手提包內之物，警員A應該如何處理？理由為何？（9分）
㈢警察是否得依社會秩序維護法或其他法律，將甲強制到案？理由為何？（8分）

更多警察、警大考試歷屆考古題庫懶人包免費下載，請上網搜尋〝警察考試題庫懶人包〞
高見公職・警察考試補習班整理

乙、測驗題部分：（50 分）　　代號：6501

㈠本測驗試題為單一選擇題，請選出一個正確或最適當的答案，複選作答者，該題不予計分。
㈡共 25 題，每題 2 分，須用 2B 鉛筆在試卡上依題號清楚劃記，於本試題或申論試卷上作答者，不予計分。

1 社會秩序維護法有關妨害公務之違序行為，下列何者不包括在內？
(A)於公務員依法執行職務時，以不當之行動相加，尚未達強暴程度者
(B)於公務員依法執行職務時，以不當之言詞相加，尚未達脅迫程度者
(C)於公務員依法執行職務時，聚眾喧嘩，致礙公務進行者
(D)因過失向消防隊誤報火災者

2 依社會秩序維護法之規定，得採取「強制到場」之情形為：
(A)證人經通知，無正當理由不到場時
(B)逕行通知現行違序之人到場，其不服通知時
(C)對裁定拘留確定之人執行時
(D)違序嫌疑人經通知，無正當理由不到場時

3 有關違反社會秩序維護法之處罰及加重、減輕之規定，下列敘述何者錯誤？
(A)一行為而發生二以上之結果者，從一重處罰
(B)違反本法之行為人，於其行為未被發覺前自首而受裁處者，必減輕或免除其處罰
(C)經依本法處罰執行完畢，3 個月內再有違反本法行為者，必加重其處罰
(D)過失行為不得處以拘留

4 甲因涉嫌違反社會秩序維護法遭警察機關留置 24 小時，嗣後經法院裁處確定不罰，甲若不服，得依下列何法請求救濟？
(A)社會秩序維護法
(B)行政訴訟法
(C)刑事補償法
(D)國家賠償法

5 警察機關對於違反社會秩序維護法之案件，下列敘述何者最為正確？
(A)警察機關對於違反社會秩序維護法之案件得逕為拘留之裁定
(B)警察人員對於現行違反社會秩序維護法之行為人，得逕行通知到場
(C)專業警察機關，不得管轄違反社會秩序維護法之案件
(D)教唆他人實施違反社會秩序維護法之行為者，必加重其處罰至二分之一

6 依警察職權行使法之相關規定，下列敘述何者最為正確？
(A)本法所稱警察，係指實質意義之警察
(B)本法所稱警察職權，係屬抽象性之措施
(C)查證身分經常是犯罪偵查的初階工作
(D)取得犯罪集團首腦之通聯紀錄非屬其有隱私或秘密合理期待之生活情形

7 有關警察法規之法律屬性問題，下列敘述何者最為正確？
(A)警察人員使用警械致人傷亡之費用支給標準，屬救濟法性質
(B)警察教育條例兼具組織法與行為法之性質
(C)警察人員人事條例屬行為法之性質
(D)警察服制條例兼具組織法與行為法之性質

8 下列有關警察人員人事事項之敘述，何者正確？
(A)警察官、職合一
(B)警察人員升遷，主要依公務人員陞遷法之規定，警察人員人事條例乃補充規定
(C)警監官等分為特、一、二、三、四階
(D)初任警佐官等人員，其年齡不得超過 35 歲

9 下列有關警察官制之敘述，何者錯誤？
(A)警察官制，包括警槍之配置
(B)警察官制，包括警察機關員額之編制標準
(C)警察官制，包括警察人員之任免、遷調
(D)警察官制，由中央立法並執行之，或交由直轄市、縣（市）執行之

10 下列何者不得擔任應經許可之室外集會遊行的負責人？
(A)19 歲之大學生
(B)經判處有期徒刑 1 年確定並宣告緩刑者
(C)受保護管束處分之裁判確定並執行完畢者
(D)執行有期徒刑 3 年後獲假釋者

11 下列何種室外集會、遊行，依集會遊行法之規定，應向主管機關申請許可？
(A)世界大學運動會優勝遊行
(B)市政府舉辦之踩街活動
(C)大甲媽祖遶境活動
(D)市議員候選人之政見說明會

12 警械之種類及規格，由行政院定之。但許可訂製、售賣或持有之警械種類規格，則由下列何機關定之？
(A)內政部
(B)法務部
(C)經濟部
(D)國防部

13 下列何者適用社會秩序維護法總則之規定裁罰？
(A)某公司負責人甲因執行業務而犯刑法妨害風化罪，經判決有期徒刑以上之刑，處該公司勒令歇業
(B)沒入某乙未經許可持有之電擊器
(C)某丙飲酒騎乘機車，拒絕警察攔停，反加速駛離，處某丙罰鍰
(D)某丁召集群眾走上街頭抗議，經警察機關命令解散而不解散，處某丁罰鍰

14 下列何種器械，非屬警察機關配備警械種類及規格表中明列之警械？
(A)辣椒水噴霧器
(B)戰防砲
(C)防暴網
(D)高壓噴水噴瓦斯車

15 行政執行法與警察職權行使法都有扣留危險物品之規定，下列何者是警察行使扣留職權應遵守之規定？
(A)物之特性不適於由警察保管者，得委託其他機關保管
(B)保管所費過鉅，應返還所有人
(C)扣留期間逾 3 個月，無法返還所有人者，得予變賣
(D)有腐壞之虞，應銷毀之

16 下列何者不是我國集會遊行法規定之內容？
(A)集會遊行中侮辱執行職務之公務員，依據集會遊行法科處刑罰
(B)集會遊行未經報備者，依據集會遊行法處負責人罰鍰
(C)警察機關具有指導權、處分權、救濟權、處罰權與執行權
(D)總統府週邊禁制區之劃定公告，屬內政部之權責

17 公民與政治權利國際公約保障人民和平集會之權利，但有危害國家安全、公共安寧、衛生、風化或他人權利自由，仍得以法律為必要之限制，我國集會遊行法亦有限制與課責之規定，下列敘述何者錯誤？
(A)在各級法院及檢察機關週邊，不得舉行集會遊行
(B)集會遊行參加人禁止攜帶危險物品
(C)集會遊行結束後，現場遺有廢棄物者，負責人應負清理之責
(D)集會遊行時糾察員不法侵害他人權利者，負責人與行為人連帶負賠償責任

18 行政執行法規定各種強制執行方法及程序，下列敘述何者正確？
(A)訊問及暫予留置時間合計不得逾 24 小時
(B)代履行，得以報告書取代執行筆錄
(C)收容為確保公法上債務履行之手段
(D)代履行費用逾期不繳納者移送法院強制執行

19 警察機關辦理社會秩序維護法案件之調查，下列敘述何者錯誤？
(A)調查程序細節，應遵守警察機關辦理社會秩序維護法案件應注意事項之規定
(B)分局收受違序報告單後，應於 2 日內簽發到場通知書
(C)行為人或嫌疑人應親自到場受訊
(D)被調查人拒絕陳述，不得強制為之

20 下列何種行為，警察機關應移送法院簡易庭裁罰？
(A)無故撥打 119 火警專線，經勸阻不聽
(B)無正當理由跟追他人，經勸阻不聽
(C)意圖與人性交易而在街道上拉客
(D)無正當理由攜帶類似真槍的玩具槍進入銀行，引起騷動

21 依公務人員行政中立法之規定，下列敘述何者正確？
(A)警察機關不可安排警察人員在上班時間從事政黨活動之蒐證勤務
(B)公務人員不可加入政黨或擔任政治團體之職務
(C)公務人員為支持長官參選公職，得具名刊登媒體廣告
(D)公務人員得於下班後，參加政黨募款餐會

22 警察法第 2 條規定警察依法防止一切危害，下列何種危害非屬警察法定任務範圍？
(A)違反交通規則
(B)暴行鬥毆
(C)圍堵政府機關潑漆抗議
(D)亂丟垃圾污染環境

23 依警察法第 3 條制定之警察官規與教育制度的相關規定，下列敘述何者正確？
(A)初任各官等警察官，均應呈請總統任官
(B)警察官之任用應經警察教育機關畢業或訓練合格。所指訓練，包含晉升警正官等訓練班
(C)警佐班、專業班屬於警察進修教育
(D)警察養成教育各班別在教育期間皆享有公費待遇及津貼

24 司法院大法官會議有多號解釋涉及警察事務。下列敘述何者正確？
(A)釋字第 588 號解釋，認為憲法第 8 條之警察機關是組織法上狹義的警察概念
(B)釋字第 760 號解釋，認為警察人員人事條例第 11 條使未具警察教育學歷者不得擔任警察之規定違憲
(C)釋字第 718 號解釋，認為集會遊行法第 8 條未排除緊急性及偶發性集會遊行，違反憲法比例原則
(D)釋字第 666 號解釋，認為社會秩序維護法第 80 條罰娼不罰嫖之規定違反憲法比例原則

25 下列有關警察管轄事權分配之敘述何者正確？
(A)內政部警政署執行全國警察行政事務
(B)航空警察局掌理入出國境之證照核發審驗業務
(C)直轄市政府警察局組織規程，由內政部發布
(D)警察常年訓練之實施，屬於中央立法事項

測驗題標準答案更正

考試名稱：１０７年公務人員特種考試警察人員、一般警察人員考試及１０７年特種考試交通事業鐵路人員考試

類科名稱：行政警察人員、外事警察人員（選試英語）、刑事警察人員、公共安全人員、犯罪防治人員預防組、交通警察人員交通組、交通警察人員電訊組、警察資訊管理人員、國境警察人員、警察法制人員、行政管理人員

科目名稱：警察法規(包括警察法、行政執行法、社會秩序維護法、警械使用條例、集會遊行法、警察職權行使法、公務人員行政中立法)

單選題數：25題　　單選每題配分：2.00分

複選題數：　　複選每題配分：

標準答案：答案標註#者，表該題有更正答案，其更正內容詳見備註。

題號	第1題	第2題	第3題	第4題	第5題	第6題	第7題	第8題	第9題	第10題
答案	D	B	C	D	B	C	A	C	#	#

題號	第11題	第12題	第13題	第14題	第15題	第16題	第17題	第18題	第19題	第20題
答案	D	A	A	A	A	B	A	A	C	D

題號	第21題	第22題	第23題	第24題	第25題	第26題	第27題	第28題	第29題	第30題
答案	D	D	C	C	A					

題號	第31題	第32題	第33題	第34題	第35題	第36題	第37題	第38題	第39題	第40題
答案										

題號	第41題	第42題	第43題	第44題	第45題	第46題	第47題	第48題	第49題	第50題
答案										

題號	第51題	第52題	第53題	第54題	第55題	第56題	第57題	第58題	第59題	第60題
答案										

題號	第61題	第62題	第63題	第64題	第65題	第66題	第67題	第68題	第69題	第70題
答案										

題號	第71題	第72題	第73題	第74題	第75題	第76題	第77題	第78題	第79題	第80題
答案										

題號	第81題	第82題	第83題	第84題	第85題	第86題	第87題	第88題	第89題	第90題
答案										

題號	第91題	第92題	第93題	第94題	第95題	第96題	第97題	第98題	第99題	第100題
答案										

備　　註：第9題答Ａ或Ｃ或ＡＣ者均給分，第10題答Ａ或Ｄ或AD者均給分。

更多警察、警大考試歷屆考古題庫懶人包免費下載，請上網搜尋〝警察考試題庫懶人包〞
高見公職・警察考試補習班整理

代號：50120-50520
50720-51120
51320-51420
頁次：4－1

107年公務人員特種考試警察人員、一般警察人員考試及107年特種考試交通事業鐵路人員考試試題

考 試 別：警察人員考試
等　　別：三等考試
類 科 別：行政警察人員、外事警察人員（選試英語）、刑事警察人員、公共安全人員、犯罪防治人員預防組、交通警察人員交通組、交通警察人員電訊組、警察資訊管理人員、刑事鑑識人員、國境警察人員、警察法制人員、行政管理人員
科　　目：警察情境實務（包括警察法規、實務操作標準作業程序、人權保障與正當法律程序）
考試時間：2小時　　座號：＿＿＿＿＿＿

※注意：禁止使用電子計算器。

甲、申論題部分：（60分）
㈠不必抄題，作答時請將試題題號及答案依照順序寫在申論試卷上，於本試題上作答者，不予計分。
㈡請以藍、黑色鋼筆或原子筆在申論試卷上作答。
㈢本科目除專門名詞或數理公式外，應使用本國文字作答。

一、你率領一小隊持拘票前往某出租套房大樓，拘提一名違反槍砲彈藥刀械管制條例之嫌疑人甲，上樓後正巧與甲在套房門口遭遇，甲開2槍後逃逸，並由頂樓跳入隔壁大樓，經陽台進入1間公寓挾持1名男大學生。請依此狀況，回答下列問題：
㈠你在現場應如何應變處置？（10分）
㈡若甲拒不投降並威脅殺害大學生，警方後續應採取何種作為？（10分）

二、最近使用社群媒體之聚眾活動，迅速動員大批群眾，當面對警察執行公權力時，群眾隨時隨地進行反蒐證，易曲解法律，傳播不實訊息而誣陷警察之執法。你是現場分區指揮官，主持勤前教育時，應如何提示強化勤務作為？（20分）

三、民眾甲違規停車，遭取締時與警方拉扯並出手攻擊執勤警員，被帶回派出所。甲質疑警方執法過當，打電話請市議員到場協助，市議員抵達派出所後，以監督市政身分關切，暗示警方將大事化小，一定得放人。你是該所所長，應如何回應市議員之關切及處理本案？（20分）

乙、測驗題部分：（40分）　　代號：2501
㈠本測驗試題為單一選擇題，請選出一個正確或最適當的答案，複選作答者，該題不予計分。
㈡共20題，每題2分，須用2B鉛筆在試卡上依題號清楚劃記，於本試題或申論試卷上作答者，不予計分。

1 犯罪嫌疑人甲到分局偵查隊接受詢問，一開始表明無須選聘辯護人，但在詢問期間卻又表示要聘請辯護人為他辯護，你面臨此狀況應如何回應？
(A)將情況報告分局長後，再報請檢察官核示
(B)應接受甲要求，暫停詢問並立即進行選聘作業程序
(C)可接受甲要求，但應將詢問調查筆錄告一段落後，再進行選聘
(D)不接受甲要求，並告知事前已表示不需辯護人，且詢問正進行中

更多警察、警大考試歷屆考古題庫懶人包免費下載，請上網搜尋〝警察考試題庫懶人包〞
高見公職・警察考試補習班整理

2 你是派出所所長，有民眾舉家出國旅遊一週，申請加強住宅巡邏，下列何種處置最不適當？
(A)申請人舉家外出後，每 2 至 4 小時至少巡邏 1 班次
(B)告知申請人必須親自到派出所或分局申請
(C)受理員警查證後，於申請人住宅周邊隱密處設置臨時巡邏箱
(D)申請人返家後，收回臨時巡邏箱，並請申請人於巡邏簽章表簽章

3 你是分局偵查隊分隊長，著便衣執行正俗專案勤務時，於轄區公園內遇甲攔阻你的去路，但並未拉扯你的衣物或身體，表示可以介紹朋友給你到汽車旅館從事性交易。此時你表明身分，對甲應如何處置？
(A)甲之行為尚未違反社會秩序維護法，僅口頭告誡即可
(B)甲之行為雖已違反社會秩序維護法，但因性交易未遂，故乃不罰
(C)甲之行為已違反社會秩序維護法，應帶回訊問，由分局裁定處罰
(D)甲之行為已違反社會秩序維護法，應帶回訊問，移送地方法院簡易庭裁定之

4 你接獲民眾報案前往交通事故現場處理時，發現係屬於造成車頭損壞之 A3 事故，經事故當事人甲告知，另一事故車輛駕駛人乙未下車處理即駛離，甲僅記下乙車之車型及顏色，但未看清車牌號碼，下列何者非優先處理事項？
(A)測繪事故現場，並分析研判人車動態
(B)找尋事故現場目擊者，掌控逃逸車輛行蹤
(C)蒐集事故現場散落物、車體碎片等跡證
(D)立即通報勤務指揮中心，攔查該逃逸車輛

5 你是警察分局偵查隊分隊長，某日接獲勤務指揮中心通報某民宅發生命案，當你帶隊最先抵達現場時，發現有名男子倒臥於民宅內客廳血流如注，且已失去意識，你首要採取之措施為何？
(A)保全現場 (B)救護傷患 (C)保全證物 (D)確認犯嫌

6 你帶班執行取締酒駕勤務時，發現駕駛人甲臉色潮紅，要求甲配合檢測呼氣酒精濃度，甲檢測結果為酒精濃度 0.29MG/L，甲遂質疑酒精測定器不準確，要求再測一次，下列何項處置最適當？
(A)提供礦泉水給甲漱口後，以原酒測器再行檢測一次
(B)明確告知等 15 分鐘後，以原酒測器再行檢測一次
(C)出示酒測器年度檢驗合格證書，表明此檢測器符合標準
(D)為讓甲心服口服，以另一部酒測器再行實施檢測

7 甲意圖賣淫，拜託乙協助於某飯店大廳散發名片，甲則於飯店房間內等候客人上門。你是轄區派出所所長，於接獲該飯店經理通報後，前往處理查獲上情屬實。甲之行為，依社會秩序維護法相關條文規定，應如何處罰？
(A)不罰 (B)依教唆他人違序行為處罰
(C)依利用他人違序行為處罰 (D)依幫助他人違序行為處罰

更多警察、警大考試歷屆考古題庫懶人包免費下載，請上網搜尋〝警察考試題庫懶人包〞
高見公職・警察考試補習班整理

8 你是偵查隊分隊長，接獲線報轄內一列管強盜通緝犯藏身於縣內其他分局轄區民宅，為恐該通緝犯再次逃逸，你即向隊長報告請其編排勤務，俾越區查緝，下列何項處置較為適當？

(A)填具越區通報單，請分局勤務指揮中心傳真管轄分局後，前往查緝

(B)依規定向隊長及勤務指揮中心報告後，前往查緝

(C)因未領用槍械，所以得不用通報，如有查獲人犯再補傳（送）越區通報單

(D)為防查緝行動曝光以不通報為宜，惟查緝結果應詳述於工作記錄簿備查

9 你帶班實施臨檢時，甲未攜帶身分證件，而員警現場能使用之所有查詢工具與方法，亦無從確定其身分，據當時狀況研判，決定帶回派出所查證，而於甲同意下，執勤應注意下列何事項？

(A)帶往派出所查證，並自攔停起不得逾 8 小時

(B)帶往派出所查證，並自攔停起不得逾 3 小時

(C)必須逕行現場逮捕並上手銬帶往派出所查證

(D)必須以強制力及優勢警力戒護並帶往派出所查證

10 你帶領派出所同仁處理 A3 交通事故，抵達時事故當事人均在現場，且雙方車輛均已移至路邊，而未作終止位置之定位時，下列處置何者最適當？

(A)先回報勤務指揮中心事故現場狀況　(B)詢問事故當事人是否已經達成和解

(C)詢問雙方車輛碰撞型態與終止位置　(D)無須通報交通分隊到現場處理

11 你於凌晨 2 時 10 分抵達一處命案現場，發現死者倒臥於地上，頸部有一連接兩耳的長刀傷，屍體旁有一把武士刀及數滴血跡，死者上半身赤裸，手表碎裂，時間停留在 9 時 5 分；根據以上資訊，你做出的最可能推論為何？

(A)死者可能在其他地方遇害　(B)可能為自殺案件

(C)死者可能認識兇手　(D)兇手可能為幫派分子

12 你於 1 月 1 日 21 時執行犯罪嫌疑人甲拘提作業，並於當日 23 時將甲拘提到案，應將逮捕拘禁之原因至遲於何時前，以書面告知甲及其指定之親友？

(A)1 月 1 日 23 時　(B)1 月 2 日 7 時　(C)1 月 2 日 15 時　(D)1 月 2 日 23 時

13 你帶班執行取締酒後駕車勤務時，自小客車駕駛甲行經該攔查地點未依指示停車受檢，經攔停甲後，下列處置，何者最優先？

(A)逕行對甲未依指示停車受檢行為，製單舉發，並當場移置保管其車輛

(B)出示證件表明身分，告知甲行經設有告示執行酒測勤務處所，未依指示停車接受酒測稽查

(C)先要求甲引擎熄火下車，並查證其身分後，依法製單舉發，並當場移置保管其車輛

(D)先觀察甲有無酒後駕車之徵兆，經詢問飲酒結束時間達 15 分鐘以上時，依規定對其實施酒測

14 你帶隊執行 A1 類肇事逃逸案件之現場採證工作，基於連結指向某特定肇事車輛之考慮，下列何項跡證之連結較薄弱？
(A)血液之噴濺痕 (B)散落之車頭燈碎片 (C)地面之輪胎痕跡 (D)掉落之保險桿破片

15 你持搜索票，帶隊前往甲處搜索，於搜索現場發現數十部燒錄器，然未查獲盜版光碟片。經詢問被搜索人盜版光碟片之去處，其答稱均置於離甲處 1 公里遠之乙處（為被搜索人所有）。下列作為何者正確？
(A)可逕赴乙處搜索，扣押盜版光碟片，搜索扣押筆錄之執行處所應載明於甲處
(B)可逕赴乙處搜索，扣押盜版光碟片，搜索扣押筆錄之執行處所應載明於甲處及乙處
(C)經被搜索人同意搜索乙處並製作筆錄後，再搜索乙處，扣押盜版光碟片
(D)不論被搜索人是否自願性同意，均不得前往乙處搜索，仍需使用搜索票執行搜索

16 你是分局偵查隊分隊長，近期轄區密集發生多起特定車型轎車音響、行車記錄器竊盜案，你由手法研判可能同一人所為，但無其他任何跡證可連結與證明，僅在其中一件案件在車上採取疑似竊嫌犯案時遭玻璃割傷遺留之血跡，比對出某一特定嫌疑人，下列作為何者最適當？
(A)跟監蒐證其犯案事實與銷贓地點，在其犯案既遂時點逮捕
(B)聲請通訊監察，以了解該竊車集團關係
(C)私下請託保全業者在犯嫌使用車輛裝設 GPS，掌握其車行動向及銷贓地點
(D)直接聲請拘票拘提犯嫌，並附帶搜索其住所

17 自小客車駕駛甲行駛內側車道，在前方行駛的小貨車上掉落了一個大車輪，緊急往外側車道閃避，被乙所駕駛的自小客車車頭攔腰撞上右前門，據蒐證調查結果發現該小貨車為丙所有，經通知前來接受調查，丙坦承事故現場大輪胎確為其行經時所掉落，下列何者為本案事故主要發生原因？
(A)甲任意變換車道 (B)丙駕駛小貨車裝載貨物捆紮不牢掉落
(C)甲未注意車前狀況 (D)丙駕駛小貨車肇事逃逸

18 你是交通分隊長，深夜有一名醉漢甲行走於快速公路，經通報巡邏員警將甲帶回隊部。甲因情緒激動，浮躁不安，你乃指示同仁對甲實施管束，下列處置何者錯誤？
(A)得檢查甲之身體 (B)得檢查甲攜帶之物品
(C)對甲實施酒精濃度檢測 (D)告知甲得依法聲請提審

19 中正、中山路口號誌正常運作，經查張三無照騎乘李四所有的機車，由東向西行駛在中正路闖紅燈，與南向北行駛在中山路由王五所駕駛的小客車在路口發生碰撞，造成張三人車倒地後撞及行人劉六，當你赴現場處理事故要填具「事故當事人登記聯單」時，何人應列為第一當事人？
(A)張三 (B)李四 (C)王五 (D)劉六

20 你執行各項專案勤務時，有關處理聚眾活動之蒐證作為，下列何者不適當？
(A)執勤同仁遇有狀況，務必立即全程且完整蒐證，以利事後查究責任及釐清真相
(B)充分配置蒐證小組，採多角度之複式全程蒐證，並運用 M-police、微波視訊及路口監視系統等設備
(C)刑事警察人員不足或尚未到達之前，針對已舉行之集會遊行或聚眾活動過程，可免執行蒐證
(D)蒐證編組人員均應具嫻熟之蒐證能力，並攜帶適當裝備，全程蒐證，以釐清真相

測驗題標準答案更正

考試名稱：１０７年公務人員特種考試警察人員、一般警察人員考試及１０７年特種考試交通事業鐵路人員考試

類科名稱：行政警察人員、外事警察人員（選試英語）、刑事警察人員、公共安全人員、犯罪防治人員預防組、交通警察人員交通組、交通警察人員電訊組、警察資訊管理人員、刑事鑑識人員、國境警察人員、警察法制人員、行政管理人員

科目名稱：警察情境實務(包括警察法規、實務操作標準作業程序、人權保障與正當法律程序)

單選題數：20題　　單選每題配分：2.00分

複選題數：　　複選每題配分：

標準答案：答案標註#者，表該題有更正答案，其更正內容詳見備註。

題號	第1題	第2題	第3題	第4題	第5題	第6題	第7題	第8題	第9題	第10題
答案	B	B	D	A	B	C	B	A	B	C

題號	第11題	第12題	第13題	第14題	第15題	第16題	第17題	第18題	第19題	第20題
答案	A	D	B	#	C	A	B	C	A	C

題號	第21題	第22題	第23題	第24題	第25題	第26題	第27題	第28題	第29題	第30題
答案										

題號	第31題	第32題	第33題	第34題	第35題	第36題	第37題	第38題	第39題	第40題
答案										

題號	第41題	第42題	第43題	第44題	第45題	第46題	第47題	第48題	第49題	第50題
答案										

題號	第51題	第52題	第53題	第54題	第55題	第56題	第57題	第58題	第59題	第60題
答案										

題號	第61題	第62題	第63題	第64題	第65題	第66題	第67題	第68題	第69題	第70題
答案										

題號	第71題	第72題	第73題	第74題	第75題	第76題	第77題	第78題	第79題	第80題
答案										

題號	第81題	第82題	第83題	第84題	第85題	第86題	第87題	第88題	第89題	第90題
答案										

題號	第91題	第92題	第93題	第94題	第95題	第96題	第97題	第98題	第99題	第100題
答案										

備　　註：第14題答Ａ或Ｃ或ＡＣ者均給分。

更多警察、警大考試歷屆考古題庫懶人包免費下載，請上網搜尋〝警察考試題庫懶人包〞
高見公職・警察考試補習班整理

107年公務人員特種考試警察人員、一般警察人員考試及
107年特種考試交通事業鐵路人員考試試題　代號：50730　全一頁

考 試 別：警察人員考試
等　　別：三等考試
類 科 別：交通警察人員交通組
科　　目：交通工程與管制
考試時間：2小時　座號：_____

※注意：㈠禁止使用電子計算器。
㈡不必抄題，作答時請將試題題號及答案依照順序寫在試卷上，於本試題上作答者，不予計分。
㈢本科目除專門名詞或數理公式外，應使用本國文字作答。

一、道路施工之交通安全管制設施規劃與設計的注意事項有那些？並請說明道路施工之交通安全管制設施，在何種情形下應設置旗手？旗手的作用包括那些？（20分）

二、槽化設計時應分析人、車在交叉路口之動線，以了解交叉路口交通之型態與特性，以便作最適當之設計，請說明槽化設計所應考慮人及交通等那六大項因素及其細項有那些？（20分）

三、請說明指示標線有那些種類？（20分）

四、請說明縱向標線有那十四種？其中的禁止變換車道線可能會設置於那些地點？（20分）

五、在經常發生同向左右轉彎車車禍的交叉口，有那些可能的改善措施？（20分）

更多警察、警大考試歷屆考古題庫懶人包免費下載，請上網搜尋〝警察考試題庫懶人包〞
高見公職・警察考試補習班整理

107年公務人員特種考試警察人員、一般警察人員考試及
107年特種考試交通事業鐵路人員考試試題

代號：50770

考 試 別：警察人員考試
等　　別：三等考試
類 科 別：交通警察人員交通組
科　　目：交通統計與分析
考試時間：2小時　　座號：_____

※注意：㈠可以使用電子計算器。
㈡不必抄題，作答時請將試題題號及答案依照順序寫在試卷上，於本試題上作答者，不予計分。
㈢本科目除專門名詞或數理公式外，應使用本國文字作答。

一、交通部於105年調查共40,246位民眾平時外出旅次的主運具，結果如下表。其中公共運具包括捷運、市區公車、計程車……等，私人機動運具包括機車與自用小客車，非機動運具包括步行與自行車，請回答下列問題：

年齡	公共運具	非機動運具	私人機動運具	總和
15-未滿20歲	1,451	547	798	2,796
20-未滿40歲	1,346	458	6,830	8,634
40-未滿60歲	1,229	1,067	10,479	12,775
60歲及以上	2,977	4,219	8,845	16,041
小計	7,003	6,291	26,952	40,246

㈠請問不同年齡層的民眾外出旅次使用的主運具是否有差異？請完成統計推論並說明分析結果。（10分）
㈡請推估以搭乘公共運具為主民眾所占比例的95%信賴區間。（10分）
㈢根據內政部統計，105年底我國15歲以上人口共有20,397,935人，請推估全國公共運具的市場大小（以人口數計之）為何？（5分）

二、假設某研究想了解雙北市公車實施一車雙機（即加裝後門驗票機）後，是否能有效減少尖峰時段每站停靠時間，研究團隊隨機觀察並記錄實施前、後公車停靠站時間，結果如下表。我們可以據以推論實施一車雙機可減少尖峰時段公車平均每站停靠時間嗎？請說明分析結果。（25分）

	實施前	實施後
樣本數	150	200
平均停靠時間(秒/站)	52.425	48.052
停靠時間標準差(秒)	18.492	15.421

三、根據統計，臺鐵在102年至104年間平均每週發生0.9件重大交通事故，假設臺鐵每週發生重大交通事故次數呈卜瓦松分配（Poisson distribution），請回答下列問題：
㈠4週內都沒有發生任何重大交通事故的機率為何？（9分）
㈡臺鐵每年發生重大交通事故次數的平均值與標準差為何？（6分）
㈢連續4週，每週均發生1件重大交通事故的機率為何？（10分）

（請接第二頁）

考 試 別：警察人員考試
等　　別：三等考試
類 科 別：交通警察人員交通組
科　　目：交通統計與分析

四、公共自行車已成為世界各國普遍接受的公共運輸方式，下表為 2012 年美國華盛頓特區（Washington D.C., USA）Capital Bikeshare 系統每日（共 366 日）營運資料（租借車次）統計，就天氣狀況（weather：晴、陰、雨/雪）分析，其單因子變異數分析（one factor ANOVA）結果如下，請回答下列問題：

天氣狀況	晴	陰	雨/雪	全年
日數	237	123	6	366
平均租借車次	6003.734	4991.333	2126.167	5599.934
租借車次標準差	1611.871	1759.657	2011.653	1788.668

變異數分析表：

變異來源	自由度	平方和	均方	F 值	P 值(>F)
天氣狀況	①	156604850	④	⑤	4.464e-12
殘差	②	③	2785542		

㈠請填入上表①～⑤的數值。（10 分）
㈡請問利用變異數分析進行分析時，其假設前提為何？（10 分）
㈢請問是否可推論天氣狀況會影響公共自行車的租借車次？（5 分）

更多警察、警大考試歷屆考古題庫懶人包免費下載，請上網搜尋〝警察考試題庫懶人包〞
高見公職・警察考試補習班整理

（請接第三頁）

考 試 別：警察人員考試
等　　別：三等考試
類 科 別：交通警察人員交通組
科　　目：交通統計與分析

附表一：標準常態分配表

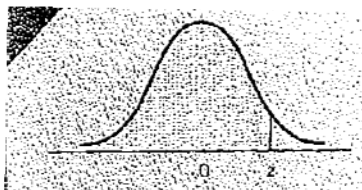

$P(-\infty < Z < z)$

Z	0.00	0.01	0.02	0.03	0.04	0.05	0.06	0.07	0.08	0.09
0.0	0.5000	0.5040	0.5080	0.5120	0.5160	0.5199	0.5239	0.5279	0.5319	0.5359
0.1	0.5398	0.5438	0.5478	0.5517	0.5557	0.5596	0.5636	0.5675	0.5714	0.5753
0.2	0.5793	0.5832	0.5871	0.5910	0.5948	0.5987	0.6026	0.6064	0.6103	0.6141
0.3	0.6179	0.6217	0.6255	0.6293	0.6331	0.6368	0.6406	0.6443	0.6480	0.6517
0.4	0.6554	0.6591	0.6628	0.6664	0.6700	0.6736	0.6772	0.6808	0.6844	0.6879
0.5	0.6915	0.6950	0.6985	0.7019	0.7054	0.7088	0.7123	0.7157	0.7190	0.7224
0.6	0.7257	0.7291	0.7324	0.7357	0.7389	0.7422	0.7454	0.7486	0.7517	0.7549
0.7	0.7580	0.7611	0.7642	0.7673	0.7704	0.7734	0.7764	0.7794	0.7823	0.7852
0.8	0.7881	0.7910	0.7939	0.7967	0.7995	0.8023	0.8051	0.8078	0.8106	0.8133
0.9	0.8159	0.8186	0.8212	0.8238	0.8264	0.8289	0.8315	0.8340	0.8365	0.8389
1.0	0.8413	0.8438	0.8461	0.8485	0.8508	0.8531	0.8554	0.8577	0.8599	0.8621
1.1	0.8643	0.8665	0.8686	0.8708	0.8729	0.8749	0.8770	0.8790	0.8810	0.8830
1.2	0.8849	0.8869	0.8888	0.8907	0.8925	0.8944	0.8962	0.8980	0.8997	0.9015
1.3	0.9032	0.9049	0.9066	0.9082	0.9099	0.9115	0.9131	0.9147	0.9162	0.9177
1.4	0.9192	0.9207	0.9222	0.9236	0.9251	0.9265	0.9279	0.9292	0.9306	0.9319
1.5	0.9332	0.9345	0.9357	0.9370	0.9382	0.9394	0.9406	0.9418	0.9429	0.9441
1.6	0.9452	0.9463	0.9474	0.9484	0.9495	0.9505	0.9515	0.9525	0.9535	0.9545
1.7	0.9554	0.9564	0.9573	0.9582	0.9591	0.9599	0.9608	0.9616	0.9625	0.9633
1.8	0.9641	0.9649	0.9656	0.9664	0.9671	0.9678	0.9686	0.9693	0.9699	0.9706
1.9	0.9713	0.9719	0.9726	0.9732	0.9738	0.9744	0.9750	0.9756	0.9761	0.9767
2.0	0.9772	0.9778	0.9783	0.9788	0.9793	0.9798	0.9803	0.9808	0.9812	0.9817
2.1	0.9821	0.9826	0.9830	0.9834	0.9838	0.9842	0.9846	0.9850	0.9854	0.9857
2.2	0.9861	0.9864	0.9868	0.9871	0.9875	0.9878	0.9881	0.9884	0.9887	0.9890
2.3	0.9893	0.9896	0.9898	0.9901	0.9904	0.9906	0.9909	0.9911	0.9913	0.9916
2.4	0.9918	0.9920	0.9922	0.9925	0.9927	0.9929	0.9931	0.9932	0.9934	0.9936
2.5	0.9938	0.9940	0.9941	0.9943	0.9945	0.9946	0.9948	0.9949	0.9951	0.9952
2.6	0.9953	0.9955	0.9956	0.9957	0.9959	0.9960	0.9961	0.9962	0.9963	0.9964
2.7	0.9965	0.9966	0.9967	0.9968	0.9969	0.9970	0.9971	0.9972	0.9973	0.9974
2.8	0.9974	0.9975	0.9976	0.9977	0.9977	0.9978	0.9979	0.9979	0.9980	0.9981
2.9	0.9981	0.9982	0.9982	0.9983	0.9984	0.9984	0.9985	0.9985	0.9986	0.9986
3.0	0.9987	0.9987	0.9987	0.9988	0.9988	0.9989	0.9989	0.9989	0.9990	0.9990

（請接第四頁）

考 試 別：警察人員考試
等　　別：三等考試
類 科 別：交通警察人員交通組
科　　目：交通統計與分析

附表二：t 分配表

Critical Values of the Student t Distribution

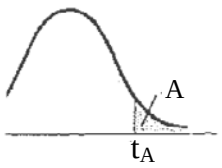

Degrees of Freedom	$t_{.100}$	$t_{.050}$	$t_{.025}$	$t_{.010}$	$t_{.005}$
1	3.078	6.314	12.706	31.821	63.657
2	1.886	2.920	4.303	6.965	9.925
3	1.638	2.353	3.182	4.541	5.841
4	1.533	2.132	2.776	3.747	4.604
5	1.476	2.015	2.571	3.365	4.032
6	1.440	1.943	2.447	3.143	3.707
7	1.415	1.895	2.365	2.998	3.499
8	1.397	1.860	2.306	2.896	3.355
9	1.383	1.833	2.262	2.821	3.250
10	1.372	1.812	2.228	2.764	3.169
11	1.363	1.796	2.201	2.718	3.106
12	1.356	1.782	2.179	2.681	3.055
13	1.350	1.771	2.160	2.650	3.012
14	1.345	1.761	2.145	2.624	2.977
15	1.341	1.753	2.131	2.602	2.947
16	1.337	1.746	2.120	2.583	2.921
17	1.333	1.740	2.110	2.567	2.898
18	1.330	1.734	2.101	2.552	2.878
19	1.328	1.729	2.093	2.539	2.861
20	1.325	1.725	2.086	2.528	2.845
21	1.323	1.721	2.080	2.518	2.831
22	1.321	1.717	2.074	2.508	2.819
23	1.319	1.714	2.069	2.500	2.807
24	1.318	1.711	2.064	2.492	2.797
25	1.316	1.708	2.060	2.485	2.787
26	1.315	1.706	2.056	2.479	2.779
27	1.314	1.703	2.052	2.473	2.771
28	1.313	1.701	2.048	2.467	2.763
29	1.311	1.699	2.045	2.462	2.756
30	1.310	1.697	2.042	2.457	2.750
35	1.306	1.690	2.030	2.438	2.724
40	1.303	1.684	2.021	2.423	2.704
45	1.301	1.679	2.014	2.412	2.690
50	1.299	1.676	2.009	2.403	2.678
55	1.297	1.673	2.004	2.396	2.668
60	1.296	1.671	2.000	2.390	2.660
65	1.295	1.669	1.997	2.385	2.654
70	1.294	1.667	1.994	2.381	2.648
75	1.293	1.665	1.992	2.377	2.643
80	1.292	1.664	1.990	2.374	2.639
85	1.292	1.663	1.988	2.371	2.635
90	1.291	1.662	1.987	2.368	2.632
95	1.291	1.661	1.985	2.366	2.629
100	1.290	1.660	1.984	2.364	2.626
110	1.289	1.659	1.982	2.361	2.621
120	1.289	1.658	1.980	2.358	2.617
130	1.288	1.657	1.978	2.355	2.614
140	1.288	1.656	1.977	2.353	2.611
150	1.287	1.655	1.976	2.351	2.609
160	1.287	1.654	1.975	2.350	2.607
170	1.287	1.654	1.974	2.348	2.605
180	1.286	1.653	1.973	2.347	2.603
190	1.286	1.653	1.973	2.346	2.602
200	1.286	1.653	1.972	2.345	2.601
∞	1.282	1.645	1.960	2.326	2.576

（請接第五頁）

考 試 別：警察人員考試
等　　別：三等考試
類 科 別：交通警察人員交通組
科　　目：交通統計與分析

附表三：卡方分配表

Critical Values of the χ^2 Distribution

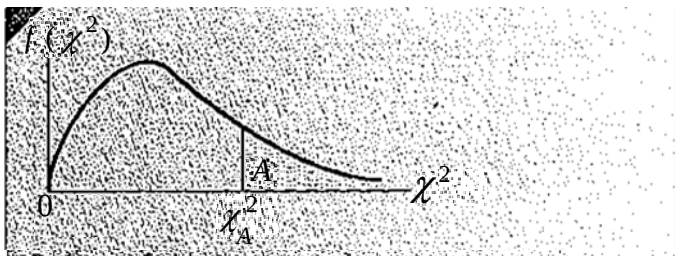

Degrees of Freedom	$\chi^2_{.995}$	$\chi^2_{.990}$	$\chi^2_{.975}$	$\chi^2_{.950}$	$\chi^2_{.900}$	$\chi^2_{.100}$	$\chi^2_{.050}$	$\chi^2_{.025}$	$\chi^2_{.010}$	$\chi^2_{.005}$
1	0.000039	0.000157	0.000982	0.00393	0.0158	2.71	3.84	5.02	6.63	7.88
2	0.0100	0.0201	0.0506	0.103	0.211	4.61	5.99	7.38	9.21	10.6
3	0.072	0.115	0.216	0.352	0.584	6.25	7.81	9.35	11.3	12.8
4	0.207	0.297	0.484	0.711	1.06	7.78	9.49	11.1	13.3	14.9
5	0.412	0.554	0.831	1.15	1.61	9.24	11.1	12.8	15.1	16.7
6	0.676	0.872	1.24	1.64	2.20	10.6	12.6	14.4	16.8	18.5
7	0.989	1.24	1.69	2.17	2.83	12.0	14.1	16.0	18.5	20.3
8	1.34	1.65	2.18	2.73	3.49	13.4	15.5	17.5	20.1	22.0
9	1.73	2.09	2.70	3.33	4.17	14.7	16.9	19.0	21.7	23.6
10	2.16	2.56	3.25	3.94	4.87	16.0	18.3	20.5	23.2	25.2
11	2.60	3.05	3.82	4.57	5.58	17.3	19.7	21.9	24.7	26.8
12	3.07	3.57	4.40	5.23	6.30	18.5	21.0	23.3	26.2	28.3
13	3.57	4.11	5.01	5.89	7.04	19.8	22.4	24.7	27.7	29.8
14	4.07	4.66	5.63	6.57	7.79	21.1	23.7	26.1	29.1	31.3
15	4.60	5.23	6.26	7.26	8.55	22.3	25.0	27.5	30.6	32.8
16	5.14	5.81	6.91	7.96	9.31	23.5	26.3	28.8	32.0	34.3
17	5.70	6.41	7.56	8.67	10.1	24.8	27.6	30.2	33.4	35.7
18	6.26	7.01	8.23	9.39	10.9	26.0	28.9	31.5	34.8	37.2
19	6.84	7.63	8.91	10.1	11.7	27.2	30.1	32.9	36.2	38.6
20	7.43	8.26	9.59	10.9	12.4	28.4	31.4	34.2	37.6	40.0
21	8.03	8.90	10.3	11.6	13.2	29.6	32.7	35.5	38.9	41.4
22	8.64	9.54	11.0	12.3	14.0	30.8	33.9	36.8	40.3	42.8
23	9.26	10.2	11.7	13.1	14.8	32.0	35.2	38.1	41.6	44.2
24	9.89	10.9	12.4	13.8	15.7	33.2	36.4	39.4	43.0	45.6
25	10.5	11.5	13.1	14.6	16.5	34.4	37.7	40.6	44.3	46.9
26	11.2	12.2	13.8	15.4	17.3	35.6	38.9	41.9	45.6	48.3
27	11.8	12.9	14.6	16.2	18.1	36.7	40.1	43.2	47.0	49.6
28	12.5	13.6	15.3	16.9	18.9	37.9	41.3	44.5	48.3	51.0
29	13.1	14.3	16.0	17.7	19.8	39.1	42.6	45.7	49.6	52.3
30	13.8	15.0	16.8	18.5	20.6	40.3	43.8	47.0	50.9	53.7
40	20.7	22.2	24.4	26.5	29.1	51.8	55.8	59.3	63.7	66.8
50	28.0	29.7	32.4	34.8	37.7	63.2	67.5	71.4	76.2	79.5
60	35.5	37.5	40.5	43.2	46.5	74.4	79.1	83.3	88.4	92.0
70	43.3	45.4	48.8	51.7	55.3	85.5	90.5	95.0	100	104
80	51.2	53.5	57.2	60.4	64.3	96.6	102	107	112	116
90	59.2	61.8	65.6	69.1	73.3	108	113	118	124	128
100	67.3	70.1	74.2	77.9	82.4	118	124	130	136	140

（請接第六頁）

考 試 別：警察人員考試
等　　別：三等考試
類 科 別：交通警察人員交通組
科　　目：交通統計與分析

附表四：F 分配表(1-1)

Critical Values of the *F*-Distribution: *A* = .05

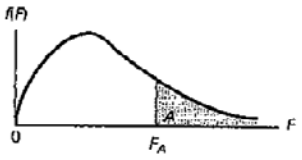

ν_2 \ ν_1	NUMERATOR DEGREES OF FREEDOM																			
	1	2	3	4	5	6	7	8	9	10	11	12	13	14	15	16	17	18	19	20
1	161	199	216	225	230	234	237	239	241	242	243	244	245	245	246	246	247	247	248	248
2	18.5	19.0	19.2	19.2	19.3	19.3	19.4	19.4	19.4	19.4	19.4	19.4	19.4	19.4	19.4	19.4	19.4	19.4	19.4	19.4
3	10.1	9.55	9.28	9.12	9.01	8.94	8.89	8.85	8.81	8.79	8.76	8.74	8.73	8.71	8.70	8.69	8.68	8.67	8.67	8.66
4	7.71	6.94	6.59	6.39	6.26	6.16	6.09	6.04	6.00	5.96	5.94	5.91	5.89	5.87	5.86	5.84	5.83	5.82	5.81	5.80
5	6.61	5.79	5.41	5.19	5.05	4.95	4.88	4.82	4.77	4.74	4.70	4.68	4.66	4.64	4.62	4.60	4.59	4.58	4.57	4.56
6	5.99	5.14	4.76	4.53	4.39	4.28	4.21	4.15	4.10	4.06	4.03	4.00	3.98	3.96	3.94	3.92	3.91	3.90	3.88	3.87
7	5.59	4.74	4.35	4.12	3.97	3.87	3.79	3.73	3.68	3.64	3.60	3.57	3.55	3.53	3.51	3.49	3.48	3.47	3.46	3.44
8	5.32	4.46	4.07	3.84	3.69	3.58	3.50	3.44	3.39	3.35	3.31	3.28	3.26	3.24	3.22	3.20	3.19	3.17	3.16	3.15
9	5.12	4.26	3.86	3.63	3.48	3.37	3.29	3.23	3.18	3.14	3.10	3.07	3.05	3.03	3.01	2.99	2.97	2.96	2.95	2.94
10	4.96	4.10	3.71	3.48	3.33	3.22	3.14	3.07	3.02	2.98	2.94	2.91	2.89	2.86	2.85	2.83	2.81	2.80	2.79	2.77
11	4.84	3.98	3.59	3.36	3.20	3.09	3.01	2.95	2.90	2.85	2.82	2.79	2.76	2.74	2.72	2.70	2.69	2.67	2.66	2.65
12	4.75	3.89	3.49	3.26	3.11	3.00	2.91	2.85	2.80	2.75	2.72	2.69	2.66	2.64	2.62	2.60	2.58	2.57	2.56	2.54
13	4.67	3.81	3.41	3.18	3.03	2.92	2.83	2.77	2.71	2.67	2.63	2.60	2.58	2.55	2.53	2.51	2.50	2.48	2.47	2.46
14	4.60	3.74	3.34	3.11	2.96	2.85	2.76	2.70	2.65	2.60	2.57	2.53	2.51	2.48	2.46	2.44	2.43	2.41	2.40	2.39
15	4.54	3.68	3.29	3.06	2.90	2.79	2.71	2.64	2.59	2.54	2.51	2.48	2.45	2.42	2.40	2.38	2.37	2.35	2.34	2.33
16	4.49	3.63	3.24	3.01	2.85	2.74	2.66	2.59	2.54	2.49	2.46	2.42	2.40	2.37	2.35	2.33	2.32	2.30	2.29	2.28
17	4.45	3.59	3.20	2.96	2.81	2.70	2.61	2.55	2.49	2.45	2.41	2.38	2.35	2.33	2.31	2.29	2.27	2.26	2.24	2.23
18	4.41	3.55	3.16	2.93	2.77	2.66	2.58	2.51	2.46	2.41	2.37	2.34	2.31	2.29	2.27	2.25	2.23	2.22	2.20	2.19
19	4.38	3.52	3.13	2.90	2.74	2.63	2.54	2.48	2.42	2.38	2.34	2.31	2.28	2.26	2.23	2.21	2.20	2.18	2.17	2.16
20	4.35	3.49	3.10	2.87	2.71	2.60	2.51	2.45	2.39	2.35	2.31	2.28	2.25	2.22	2.20	2.18	2.17	2.15	2.14	2.12
22	4.30	3.44	3.05	2.82	2.66	2.55	2.46	2.40	2.34	2.30	2.26	2.23	2.20	2.17	2.15	2.13	2.11	2.10	2.08	2.07
24	4.26	3.40	3.01	2.78	2.62	2.51	2.42	2.36	2.30	2.25	2.22	2.18	2.15	2.13	2.11	2.09	2.07	2.05	2.04	2.03
26	4.23	3.37	2.98	2.74	2.59	2.47	2.39	2.32	2.27	2.22	2.18	2.15	2.12	2.09	2.07	2.05	2.03	2.02	2.00	1.99
28	4.20	3.34	2.95	2.71	2.56	2.45	2.36	2.29	2.24	2.19	2.15	2.12	2.09	2.06	2.04	2.02	2.00	1.99	1.97	1.96
30	4.17	3.32	2.92	2.69	2.53	2.42	2.33	2.27	2.21	2.16	2.13	2.09	2.06	2.04	2.01	1.99	1.98	1.96	1.95	1.93
35	4.12	3.27	2.87	2.64	2.49	2.37	2.29	2.22	2.16	2.11	2.07	2.04	2.01	1.99	1.96	1.94	1.92	1.91	1.89	1.88
40	4.08	3.23	2.84	2.61	2.45	2.34	2.25	2.18	2.12	2.08	2.04	2.00	1.97	1.95	1.92	1.90	1.89	1.87	1.85	1.84
45	4.06	3.20	2.81	2.58	2.42	2.31	2.22	2.15	2.10	2.05	2.01	1.97	1.94	1.92	1.89	1.87	1.86	1.84	1.82	1.81
50	4.03	3.18	2.79	2.56	2.40	2.29	2.20	2.13	2.07	2.03	1.99	1.95	1.92	1.89	1.87	1.85	1.83	1.81	1.80	1.78
60	4.00	3.15	2.76	2.53	2.37	2.25	2.17	2.10	2.04	1.99	1.95	1.92	1.89	1.86	1.84	1.82	1.80	1.78	1.76	1.75
70	3.98	3.13	2.74	2.50	2.35	2.23	2.14	2.07	2.02	1.97	1.93	1.89	1.86	1.84	1.81	1.79	1.77	1.75	1.74	1.72
80	3.96	3.11	2.72	2.49	2.33	2.21	2.13	2.06	2.00	1.95	1.91	1.88	1.84	1.82	1.79	1.77	1.75	1.73	1.72	1.70
90	3.95	3.10	2.71	2.47	2.32	2.20	2.11	2.04	1.99	1.94	1.90	1.86	1.83	1.80	1.78	1.76	1.74	1.72	1.70	1.69
100	3.94	3.09	2.70	2.46	2.31	2.19	2.10	2.03	1.97	1.93	1.89	1.85	1.82	1.79	1.77	1.75	1.73	1.71	1.69	1.68
120	3.92	3.07	2.68	2.45	2.29	2.18	2.09	2.02	1.96	1.91	1.87	1.83	1.80	1.78	1.75	1.73	1.71	1.69	1.67	1.66
140	3.91	3.06	2.67	2.44	2.28	2.16	2.08	2.01	1.95	1.90	1.86	1.82	1.79	1.76	1.74	1.72	1.70	1.68	1.66	1.65
160	3.90	3.05	2.66	2.43	2.27	2.16	2.07	2.00	1.94	1.89	1.85	1.81	1.78	1.75	1.73	1.71	1.69	1.67	1.65	1.64
180	3.89	3.05	2.65	2.42	2.26	2.15	2.06	1.99	1.93	1.88	1.84	1.81	1.77	1.75	1.72	1.70	1.68	1.66	1.64	1.63
200	3.89	3.04	2.65	2.42	2.26	2.14	2.06	1.98	1.93	1.88	1.84	1.80	1.77	1.74	1.72	1.69	1.67	1.66	1.64	1.62
∞	3.84	3.00	2.61	2.37	2.21	2.10	2.01	1.94	1.88	1.83	1.79	1.75	1.72	1.69	1.67	1.64	1.62	1.60	1.59	1.57

DENOMINATOR DEGREES OF FREEDOM

（請接第七頁）

考 試 別：警察人員考試
等　　別：三等考試
類 科 別：交通警察人員交通組
科　　目：交通統計與分析

附表四：F 分配表(1-2)

ν_2 \ ν_1 (NUMERATOR DEGREES OF FREEDOM)	22	24	26	28	30	35	40	45	50	60	70	80	90	100	120	140	160	180	200	∞
1	249	249	249	250	250	251	251	251	252	252	252	253	253	253	253	253	254	254	254	254
2	19.5	19.5	19.5	19.5	19.5	19.5	19.5	19.5	19.5	19.5	19.5	19.5	19.5	19.5	19.5	19.5	19.5	19.5	19.5	19.5
3	8.65	8.64	8.63	8.62	8.62	8.60	8.59	8.59	8.58	8.57	8.57	8.56	8.56	8.55	8.55	8.55	8.54	8.54	8.54	8.53
4	5.79	5.77	5.76	5.75	5.75	5.73	5.72	5.71	5.70	5.69	5.68	5.67	5.67	5.66	5.66	5.65	5.65	5.65	5.65	5.63
5	4.54	4.53	4.52	4.50	4.50	4.48	4.46	4.45	4.44	4.43	4.42	4.41	4.41	4.41	4.40	4.39	4.39	4.39	4.39	4.37
6	3.86	3.84	3.83	3.82	3.81	3.79	3.77	3.76	3.75	3.74	3.73	3.72	3.72	3.71	3.70	3.70	3.70	3.69	3.69	3.67
7	3.43	3.41	3.40	3.39	3.38	3.36	3.34	3.33	3.32	3.30	3.29	3.29	3.28	3.27	3.27	3.26	3.26	3.25	3.25	3.23
8	3.13	3.12	3.10	3.09	3.08	3.06	3.04	3.03	3.02	3.01	2.99	2.99	2.98	2.97	2.97	2.96	2.96	2.95	2.95	2.93
9	2.92	2.90	2.89	2.87	2.86	2.84	2.83	2.81	2.80	2.79	2.78	2.77	2.76	2.76	2.75	2.74	2.74	2.73	2.73	2.71
10	2.75	2.74	2.72	2.71	2.70	2.68	2.66	2.65	2.64	2.62	2.61	2.60	2.59	2.59	2.58	2.57	2.57	2.57	2.56	2.54
11	2.63	2.61	2.59	2.58	2.57	2.55	2.53	2.52	2.51	2.49	2.48	2.47	2.46	2.46	2.45	2.44	2.44	2.43	2.43	2.41
12	2.52	2.51	2.49	2.48	2.47	2.44	2.43	2.41	2.40	2.38	2.37	2.36	2.36	2.35	2.34	2.33	2.33	2.33	2.32	2.30
13	2.44	2.42	2.41	2.39	2.38	2.36	2.34	2.33	2.31	2.30	2.28	2.27	2.27	2.26	2.25	2.25	2.24	2.24	2.23	2.21
14	2.37	2.35	2.33	2.32	2.31	2.28	2.27	2.25	2.24	2.22	2.21	2.20	2.19	2.19	2.18	2.17	2.17	2.16	2.16	2.13
15	2.31	2.29	2.27	2.26	2.25	2.22	2.20	2.19	2.18	2.16	2.15	2.14	2.13	2.12	2.11	2.11	2.10	2.10	2.10	2.07
16	2.25	2.24	2.22	2.21	2.19	2.17	2.15	2.14	2.12	2.11	2.09	2.08	2.07	2.07	2.06	2.05	2.05	2.04	2.04	2.01
17	2.21	2.19	2.17	2.16	2.15	2.12	2.10	2.09	2.08	2.06	2.05	2.03	2.03	2.02	2.01	2.00	2.00	1.99	1.99	1.96
18	2.17	2.15	2.13	2.12	2.11	2.08	2.06	2.05	2.04	2.02	2.00	1.99	1.98	1.98	1.97	1.96	1.96	1.95	1.95	1.92
19	2.13	2.11	2.10	2.08	2.07	2.05	2.03	2.01	2.00	1.98	1.97	1.96	1.95	1.94	1.93	1.92	1.92	1.91	1.91	1.88
20	2.10	2.08	2.07	2.05	2.04	2.01	1.99	1.98	1.97	1.95	1.93	1.92	1.91	1.91	1.90	1.89	1.88	1.88	1.88	1.84
22	2.05	2.03	2.01	2.00	1.98	1.96	1.94	1.92	1.91	1.89	1.88	1.86	1.86	1.85	1.84	1.83	1.82	1.82	1.82	1.78
24	2.00	1.98	1.97	1.95	1.94	1.91	1.89	1.88	1.86	1.84	1.83	1.82	1.81	1.80	1.79	1.78	1.78	1.77	1.77	1.73
26	1.97	1.95	1.93	1.91	1.90	1.87	1.85	1.84	1.82	1.80	1.79	1.78	1.77	1.76	1.75	1.74	1.73	1.73	1.73	1.69
28	1.93	1.91	1.90	1.88	1.87	1.84	1.82	1.80	1.79	1.77	1.75	1.74	1.73	1.73	1.71	1.71	1.70	1.69	1.69	1.65
30	1.91	1.89	1.87	1.85	1.84	1.81	1.79	1.77	1.76	1.74	1.72	1.71	1.70	1.70	1.68	1.68	1.67	1.66	1.66	1.62
35	1.85	1.83	1.82	1.80	1.79	1.76	1.74	1.72	1.70	1.68	1.66	1.65	1.64	1.63	1.62	1.61	1.61	1.60	1.60	1.56
40	1.81	1.79	1.77	1.76	1.74	1.72	1.69	1.67	1.66	1.64	1.62	1.61	1.60	1.59	1.58	1.57	1.56	1.55	1.55	1.51
45	1.78	1.76	1.74	1.73	1.71	1.68	1.66	1.64	1.63	1.60	1.59	1.57	1.56	1.55	1.54	1.53	1.52	1.52	1.51	1.47
50	1.76	1.74	1.72	1.70	1.69	1.66	1.63	1.61	1.60	1.58	1.56	1.54	1.53	1.52	1.51	1.50	1.49	1.49	1.48	1.44
60	1.72	1.70	1.68	1.66	1.65	1.62	1.59	1.57	1.56	1.53	1.52	1.50	1.49	1.48	1.47	1.46	1.45	1.44	1.44	1.39
70	1.70	1.67	1.65	1.64	1.62	1.59	1.57	1.55	1.53	1.50	1.49	1.47	1.46	1.45	1.44	1.42	1.42	1.41	1.40	1.35
80	1.68	1.65	1.63	1.62	1.60	1.57	1.54	1.52	1.51	1.48	1.46	1.45	1.44	1.43	1.41	1.40	1.39	1.38	1.38	1.33
90	1.66	1.64	1.62	1.60	1.59	1.55	1.53	1.51	1.49	1.46	1.44	1.43	1.42	1.41	1.39	1.38	1.37	1.36	1.36	1.30
100	1.65	1.63	1.61	1.59	1.57	1.54	1.52	1.49	1.48	1.45	1.43	1.41	1.40	1.39	1.38	1.36	1.35	1.35	1.34	1.28
120	1.63	1.61	1.59	1.57	1.55	1.52	1.50	1.47	1.46	1.43	1.41	1.39	1.38	1.37	1.35	1.34	1.33	1.32	1.32	1.26
140	1.62	1.60	1.57	1.56	1.54	1.51	1.48	1.46	1.44	1.41	1.39	1.38	1.36	1.35	1.33	1.32	1.31	1.30	1.30	1.23
160	1.61	1.59	1.57	1.55	1.53	1.50	1.47	1.45	1.43	1.40	1.38	1.36	1.35	1.34	1.32	1.31	1.30	1.29	1.28	1.22
180	1.60	1.58	1.56	1.54	1.52	1.49	1.46	1.44	1.42	1.39	1.37	1.35	1.34	1.33	1.31	1.30	1.29	1.28	1.27	1.20
200	1.60	1.57	1.55	1.53	1.52	1.48	1.46	1.43	1.41	1.39	1.36	1.35	1.33	1.32	1.30	1.29	1.28	1.27	1.26	1.19
∞	1.54	1.52	1.50	1.48	1.46	1.42	1.40	1.37	1.35	1.32	1.29	1.28	1.26	1.25	1.22	1.21	1.19	1.18	1.17	1.00

DENOMINATOR DEGREES OF FREEDOM

更多警察、警大考試歷屆考古題庫懶人包免費下載，請上網搜尋〝警察考試題庫懶人包〞
高見公職・警察考試補習班整理

（請接第八頁）

考 試 別：警察人員考試
等　　別：三等考試
類 科 別：交通警察人員交通組
科　　目：交通統計與分析

附表四：F 分配表(2-1)

Critical Values of the *F*-Distribution: *A* = .025

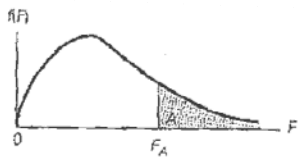

ν_2 \ ν_1	NUMERATOR DEGREES OF FREEDOM																			
	1	2	3	4	5	6	7	8	9	10	11	12	13	14	15	16	17	18	19	20
1	648	799	864	900	922	937	948	957	963	969	973	977	980	983	985	987	989	990	992	993
2	38.5	39.0	39.2	39.2	39.3	39.3	39.4	39.4	39.4	39.4	39.4	39.4	39.4	39.4	39.4	39.4	39.4	39.4	39.4	39.4
3	17.4	16.0	15.4	15.1	14.9	14.7	14.6	14.5	14.5	14.4	14.4	14.3	14.3	14.3	14.3	14.2	14.2	14.2	14.2	14.2
4	12.2	10.6	10.0	9.60	9.36	9.20	9.07	8.98	8.90	8.84	8.79	8.75	8.71	8.66	8.66	8.63	8.61	8.59	8.58	8.56
5	10.0	8.43	7.76	7.39	7.15	6.98	6.85	6.76	6.68	6.62	6.57	6.52	6.49	6.46	6.43	6.40	6.38	6.36	6.34	6.33
6	8.81	7.26	6.60	6.23	5.99	5.82	5.70	5.60	5.52	5.46	5.41	5.37	5.33	5.30	5.27	5.24	5.22	5.20	5.18	5.17
7	8.07	6.54	5.89	5.52	5.29	5.12	4.99	4.90	4.82	4.76	4.71	4.67	4.63	4.60	4.57	4.54	4.52	4.50	4.48	4.47
8	7.57	6.06	5.42	5.05	4.82	4.65	4.53	4.43	4.36	4.30	4.24	4.20	4.16	4.13	4.10	4.08	4.05	4.03	4.02	4.00
9	7.21	5.71	5.08	4.72	4.48	4.32	4.20	4.10	4.03	3.96	3.91	3.87	3.83	3.80	3.77	3.74	3.72	3.70	3.68	3.67
10	6.94	5.46	4.83	4.47	4.24	4.07	3.95	3.85	3.78	3.72	3.66	3.62	3.58	3.55	3.52	3.50	3.47	3.45	3.44	3.42
11	6.72	5.26	4.63	4.28	4.04	3.88	3.76	3.66	3.59	3.53	3.47	3.43	3.39	3.36	3.33	3.30	3.28	3.26	3.24	3.23
12	6.55	5.10	4.47	4.12	3.89	3.73	3.61	3.51	3.44	3.37	3.32	3.28	3.24	3.21	3.18	3.15	3.13	3.11	3.09	3.07
13	6.41	4.97	4.35	4.00	3.77	3.60	3.48	3.39	3.31	3.25	3.20	3.15	3.12	3.08	3.05	3.03	3.00	2.98	2.96	2.95
14	6.30	4.86	4.24	3.89	3.66	3.50	3.38	3.29	3.21	3.15	3.09	3.05	3.01	2.98	2.95	2.92	2.90	2.88	2.86	2.84
15	6.20	4.77	4.15	3.80	3.58	3.41	3.29	3.20	3.12	3.06	3.01	2.96	2.92	2.89	2.86	2.84	2.81	2.79	2.77	2.76
16	6.12	4.69	4.08	3.73	3.50	3.34	3.22	3.12	3.05	2.99	2.93	2.89	2.85	2.82	2.79	2.76	2.74	2.72	2.70	2.68
17	6.04	4.62	4.01	3.66	3.44	3.28	3.16	3.06	2.98	2.92	2.87	2.82	2.79	2.75	2.72	2.70	2.67	2.65	2.63	2.62
18	5.98	4.56	3.95	3.61	3.38	3.22	3.10	3.01	2.93	2.87	2.81	2.77	2.73	2.70	2.67	2.64	2.62	2.60	2.58	2.56
19	5.92	4.51	3.90	3.56	3.33	3.17	3.05	2.96	2.88	2.82	2.76	2.72	2.68	2.65	2.62	2.59	2.57	2.55	2.53	2.51
20	5.87	4.46	3.86	3.51	3.29	3.13	3.01	2.91	2.84	2.77	2.72	2.68	2.64	2.60	2.57	2.55	2.52	2.50	2.48	2.46
22	5.79	4.38	3.78	3.44	3.22	3.05	2.93	2.84	2.76	2.70	2.65	2.60	2.56	2.53	2.50	2.47	2.45	2.43	2.41	2.39
24	5.72	4.32	3.72	3.38	3.15	2.99	2.87	2.78	2.70	2.64	2.59	2.54	2.50	2.47	2.44	2.41	2.39	2.36	2.35	2.33
26	5.66	4.27	3.67	3.33	3.10	2.94	2.82	2.73	2.65	2.59	2.54	2.49	2.45	2.42	2.39	2.36	2.34	2.31	2.29	2.28
28	5.61	4.22	3.63	3.29	3.06	2.90	2.78	2.69	2.61	2.55	2.49	2.45	2.41	2.37	2.34	2.32	2.29	2.27	2.25	2.23
30	5.57	4.18	3.59	3.25	3.03	2.87	2.75	2.65	2.57	2.51	2.46	2.41	2.37	2.34	2.31	2.28	2.26	2.23	2.21	2.20
35	5.48	4.11	3.52	3.18	2.96	2.80	2.68	2.58	2.50	2.44	2.39	2.34	2.30	2.27	2.23	2.21	2.18	2.16	2.14	2.12
40	5.42	4.05	3.46	3.13	2.90	2.74	2.62	2.53	2.45	2.39	2.33	2.29	2.25	2.21	2.18	2.15	2.13	2.11	2.09	2.07
45	5.38	4.01	3.42	3.09	2.86	2.70	2.58	2.49	2.41	2.35	2.29	2.25	2.21	2.17	2.14	2.11	2.09	2.07	2.04	2.03
50	5.34	3.97	3.39	3.05	2.83	2.67	2.55	2.46	2.38	2.32	2.26	2.22	2.18	2.14	2.11	2.08	2.06	2.03	2.01	1.99
60	5.29	3.93	3.34	3.01	2.79	2.63	2.51	2.41	2.33	2.27	2.22	2.17	2.13	2.09	2.06	2.03	2.01	1.98	1.96	1.94
70	5.25	3.89	3.31	2.97	2.75	2.59	2.47	2.38	2.30	2.24	2.18	2.14	2.10	2.06	2.03	2.00	1.97	1.95	1.93	1.91
80	5.22	3.86	3.28	2.95	2.73	2.57	2.45	2.35	2.28	2.21	2.16	2.11	2.07	2.03	2.00	1.97	1.95	1.92	1.90	1.88
90	5.20	3.84	3.26	2.93	2.71	2.55	2.43	2.34	2.26	2.19	2.14	2.09	2.05	2.02	1.98	1.95	1.93	1.91	1.88	1.86
100	5.18	3.83	3.25	2.92	2.70	2.54	2.42	2.32	2.24	2.18	2.12	2.08	2.04	2.00	1.97	1.94	1.91	1.89	1.87	1.85
120	5.15	3.80	3.23	2.89	2.67	2.52	2.39	2.30	2.22	2.16	2.10	2.05	2.01	1.98	1.94	1.92	1.89	1.87	1.84	1.82
140	5.13	3.79	3.21	2.88	2.66	2.50	2.38	2.28	2.21	2.14	2.09	2.04	2.00	1.96	1.93	1.90	1.87	1.85	1.83	1.81
160	5.12	3.78	3.20	2.87	2.65	2.49	2.37	2.27	2.19	2.13	2.07	2.03	1.99	1.95	1.92	1.89	1.86	1.84	1.82	1.80
180	5.11	3.77	3.19	2.86	2.64	2.48	2.36	2.26	2.19	2.12	2.07	2.02	1.98	1.94	1.91	1.88	1.85	1.83	1.81	1.79
200	5.10	3.76	3.18	2.85	2.63	2.47	2.35	2.26	2.18	2.11	2.06	2.01	1.97	1.93	1.90	1.87	1.84	1.82	1.80	1.78
∞	5.03	3.69	3.12	2.79	2.57	2.41	2.29	2.19	2.11	2.05	1.99	1.95	1.90	1.87	1.83	1.80	1.78	1.75	1.73	1.71

DENOMINATOR DEGREES OF FREEDOM

（請接第九頁）

考 試 別：警察人員考試
等　　別：三等考試
類 科 別：交通警察人員交通組
科　　目：交通統計與分析

附表四：F 分配表(2-2)

DENOMINATOR DEGREES OF FREEDOM ν_2 \ NUMERATOR DEGREES OF FREEDOM ν_1	22	24	26	28	30	35	40	45	50	60	70	80	90	100	120	140	160	180	200	∞
1	996	997	999	1000	1001	1004	1006	1007	1008	1010	1011	1012	1013	1013	1014	1015	1015	1015	1016	1018
2	39.5	39.5	39.5	39.5	39.5	39.5	39.5	39.5	39.5	39.5	39.5	39.5	39.5	39.5	39.5	39.5	39.5	39.5	39.5	39.5
3	14.1	14.1	14.1	14.1	14.1	14.1	14.0	14.0	14.0	14.0	14.0	14.0	14.0	14.0	13.9	13.9	13.9	13.9	13.9	13.9
4	8.53	8.51	8.49	8.48	8.46	8.43	8.41	8.39	8.38	8.36	8.35	8.33	8.33	8.32	8.31	8.30	8.30	8.29	8.29	8.26
5	6.30	6.28	6.26	6.24	6.23	6.20	6.18	6.16	6.14	6.12	6.11	6.10	6.09	6.08	6.07	6.06	6.06	6.05	6.05	6.02
6	5.14	5.12	5.10	5.08	5.07	5.04	5.01	4.99	4.98	4.96	4.94	4.93	4.92	4.92	4.90	4.90	4.89	4.89	4.88	4.85
7	4.44	4.41	4.39	4.38	4.36	4.33	4.31	4.29	4.28	4.25	4.24	4.23	4.22	4.21	4.20	4.19	4.18	4.18	4.18	4.14
8	3.97	3.95	3.93	3.91	3.89	3.86	3.84	3.82	3.81	3.78	3.77	3.76	3.75	3.74	3.73	3.72	3.71	3.71	3.70	3.67
9	3.64	3.61	3.59	3.58	3.56	3.53	3.51	3.49	3.47	3.45	3.43	3.42	3.41	3.40	3.39	3.38	3.38	3.37	3.37	3.33
10	3.39	3.37	3.34	3.33	3.31	3.28	3.26	3.24	3.22	3.20	3.18	3.17	3.16	3.15	3.14	3.13	3.13	3.12	3.12	3.08
11	3.20	3.17	3.15	3.13	3.12	3.09	3.06	3.04	3.03	3.00	2.99	2.97	2.96	2.96	2.94	2.94	2.93	2.92	2.92	2.88
12	3.04	3.02	3.00	2.98	2.96	2.93	2.91	2.89	2.87	2.85	2.83	2.82	2.81	2.80	2.79	2.78	2.77	2.77	2.76	2.73
13	2.92	2.89	2.87	2.85	2.84	2.80	2.78	2.76	2.74	2.72	2.70	2.69	2.68	2.67	2.66	2.65	2.64	2.64	2.63	2.60
14	2.81	2.79	2.77	2.75	2.73	2.70	2.67	2.65	2.64	2.61	2.60	2.58	2.57	2.56	2.55	2.54	2.54	2.53	2.53	2.49
15	2.73	2.70	2.68	2.66	2.64	2.61	2.59	2.56	2.55	2.52	2.51	2.49	2.48	2.47	2.46	2.45	2.44	2.44	2.44	2.40
16	2.65	2.63	2.60	2.58	2.57	2.53	2.51	2.49	2.47	2.45	2.43	2.42	2.40	2.40	2.38	2.37	2.37	2.36	2.36	2.32
17	2.59	2.56	2.54	2.52	2.50	2.47	2.44	2.42	2.41	2.38	2.36	2.35	2.34	2.33	2.32	2.31	2.30	2.29	2.29	2.25
18	2.53	2.50	2.48	2.46	2.44	2.41	2.38	2.36	2.35	2.32	2.30	2.29	2.28	2.27	2.26	2.25	2.24	2.23	2.23	2.19
19	2.48	2.45	2.43	2.41	2.39	2.36	2.33	2.31	2.30	2.27	2.25	2.24	2.23	2.22	2.20	2.19	2.19	2.18	2.18	2.13
20	2.43	2.41	2.39	2.37	2.35	2.31	2.29	2.27	2.25	2.22	2.20	2.19	2.18	2.17	2.16	2.15	2.14	2.13	2.13	2.09
22	2.36	2.33	2.31	2.29	2.27	2.24	2.21	2.19	2.17	2.14	2.13	2.11	2.10	2.09	2.08	2.07	2.06	2.05	2.05	2.00
24	2.30	2.27	2.25	2.23	2.21	2.17	2.15	2.12	2.11	2.08	2.06	2.05	2.03	2.02	2.01	2.00	1.99	1.99	1.98	1.94
26	2.24	2.22	2.19	2.17	2.16	2.12	2.09	2.07	2.05	2.03	2.01	1.99	1.98	1.97	1.95	1.94	1.94	1.93	1.92	1.88
28	2.20	2.17	2.15	2.13	2.11	2.08	2.05	2.03	2.01	1.98	1.96	1.94	1.93	1.92	1.91	1.90	1.89	1.88	1.88	1.83
30	2.16	2.14	2.11	2.09	2.07	2.04	2.01	1.99	1.97	1.94	1.92	1.90	1.89	1.88	1.87	1.86	1.85	1.84	1.84	1.79
35	2.09	2.06	2.04	2.02	2.00	1.96	1.93	1.91	1.89	1.86	1.84	1.82	1.81	1.80	1.79	1.77	1.77	1.76	1.75	1.70
40	2.03	2.01	1.98	1.96	1.94	1.90	1.88	1.85	1.83	1.80	1.78	1.76	1.75	1.74	1.72	1.71	1.70	1.70	1.69	1.64
45	1.99	1.96	1.94	1.92	1.90	1.86	1.83	1.81	1.79	1.76	1.74	1.72	1.70	1.69	1.68	1.66	1.66	1.65	1.64	1.59
50	1.96	1.93	1.91	1.89	1.87	1.83	1.80	1.77	1.75	1.72	1.70	1.68	1.67	1.66	1.64	1.63	1.62	1.61	1.60	1.55
60	1.91	1.88	1.86	1.83	1.82	1.78	1.74	1.72	1.70	1.67	1.64	1.63	1.61	1.60	1.58	1.57	1.56	1.55	1.54	1.48
70	1.88	1.85	1.82	1.80	1.78	1.74	1.71	1.68	1.66	1.63	1.60	1.59	1.57	1.56	1.54	1.53	1.52	1.51	1.50	1.44
80	1.85	1.82	1.79	1.77	1.75	1.71	1.68	1.65	1.63	1.60	1.57	1.55	1.54	1.53	1.51	1.49	1.48	1.47	1.47	1.40
90	1.83	1.80	1.77	1.75	1.73	1.69	1.66	1.63	1.61	1.58	1.55	1.53	1.52	1.50	1.48	1.47	1.46	1.45	1.44	1.37
100	1.81	1.78	1.76	1.74	1.71	1.67	1.64	1.61	1.59	1.56	1.53	1.51	1.50	1.48	1.46	1.45	1.44	1.43	1.42	1.35
120	1.79	1.76	1.73	1.71	1.69	1.65	1.61	1.59	1.56	1.53	1.50	1.48	1.47	1.45	1.43	1.42	1.41	1.40	1.39	1.31
140	1.77	1.74	1.72	1.69	1.67	1.63	1.60	1.57	1.55	1.51	1.48	1.46	1.45	1.43	1.41	1.39	1.38	1.37	1.36	1.28
160	1.76	1.73	1.70	1.68	1.66	1.62	1.58	1.55	1.53	1.50	1.47	1.45	1.43	1.42	1.39	1.38	1.36	1.35	1.35	1.26
180	1.75	1.72	1.69	1.67	1.65	1.61	1.57	1.54	1.52	1.48	1.46	1.43	1.42	1.40	1.38	1.36	1.35	1.34	1.33	1.25
200	1.74	1.71	1.68	1.66	1.64	1.60	1.56	1.53	1.51	1.47	1.45	1.42	1.41	1.39	1.37	1.35	1.34	1.33	1.32	1.23
∞	1.67	1.64	1.61	1.59	1.57	1.52	1.49	1.46	1.43	1.39	1.36	1.33	1.31	1.30	1.27	1.25	1.23	1.22	1.21	1.00

107年公務人員特種考試警察人員、一般警察人員考試及
107年特種考試交通事業鐵路人員考試試題　代號：50750　全一頁

考 試 別：警察人員考試
等　　別：三等考試
類 科 別：交通警察人員交通組
科　　目：交通警察學（包括交通行政與組織、交通法規與執法、交通事故處理與偵查、交通安全策略與宣導）
考試時間：2小時　座號：＿＿＿＿＿＿

※注意：㈠禁止使用電子計算器。
㈡不必抄題，作答時請將試題題號及答案依照順序寫在試卷上，於本試題上作答者，不予計分。
㈢本科目除專門名詞或數理公式外，應使用本國文字作答。

一、教育、工程、執行為交通三 E 政策，目的在維護交通安全，而三者以交通執法、防制事故發生為基礎，請說明交通執法之意涵以及研訂交通執法策略之具體作法為何？（25 分）

二、違反道路交通管理事件統一裁罰基準及處理細則第 6 條第 2 項規定：「公路主管及警察機關就其主管業務，查獲違反道路交通管理之行為者，應本於職權舉發或處理之。」請依道路交通管理處罰條例規定說明公路主管機關及警察機關之主管業務為何？（25 分）

三、請依道路交通事故處理規範說明何謂「交通事故」？並說明交通事故初步處理後之分析研判要領為何？（25 分）

四、國道車速快，常因瞬間疏忽釀成重大交通事故，國道警察執行勤務身處生死一線間，今年四月兩位國道警察盡忠職守，執行攔截製單舉發時，遭後車追撞因公殉職引起全國關注，學者專家提出應加強運用科技設備執法，您認為道路交通管理處罰條例之規定是否能維護國道執法人員之安全？請提出具體意見及加強運用科技設備執法之具體作為。（25 分）

更多警察、警大考試歷屆考古題庫懶人包免費下載，請上網搜尋〝警察考試題庫懶人包〞
高見公職・警察考試補習班整理