108年公務人員特種考試警察人員、一般警察人員考試及108年特種考試交通事業鐵路人員、退除役軍人轉任公務人員考試試題

考 試 別：警察人員考試
等　　別：三等考試
類 科 別：交通警察人員交通組
科　　目：交通工程與管制
考試時間：2小時　　座號：_____

※注意：㈠可使用電子計算器。
㈡不必抄題，作答時請將試題題號及答案依照順序寫在試卷上，於本試題上作答者，不予計分。
㈢本科目除專門名詞或數理公式外，應使用本國文字作答。

一、道路平面交叉路口提供穿越以及左右轉的交通需求，由於彼此互為干擾，造成一些衝突，為了降低這些衝突，所以設置交通島的設施來分隔動線，或導引車流動線，以期達到其功能。
㈠請說明交通島的主要功能有那些？（15分）
㈡依照㈠陳述之功能，交通島可分為那幾種類別？（10分）

二、交通標誌可分為警告、禁制及指示三大類標誌。
㈠請說明禁制標誌的界定及功能。（10分）
㈡依照㈠陳述之功能，說明設計的規範以及案例。（15分）

三、所謂安全停車視距（Safe Stopping Distance）是指駕駛人在道路上以設計速率行駛，發現在其車道前方有障礙物時，經反應以及煞車，最後能安全地完全停止下來所需之距離長度。今在坡度+3%的道路上，摩擦係數為0.35，駕駛反應時間為2.3秒，該道路之設計速率為80 km/hr，請問該路段之安全停車視距為多少公尺？（25分）

四、在微觀（Microscopic）的車流模型中以通用汽車（General Motors, GM）公司所發展的跟車模式（Car-Following Models）為最常用。
㈠請說明GM模式的發展理論基礎為何？（10分）
㈡請說明GM各模式中的敏感度參數的意義。（15分）

108年公務人員特種考試警察人員、一般警察人員考試及108年特種考試交通事業鐵路人員、退除役軍人轉任公務人員考試試題

考 試 別：警察人員考試
等　　別：三等考試
類 科 別：交通警察人員交通組
科　　目：交通統計與分析
考試時間：2小時　　座號：_____

※注意：㈠可以使用電子計算器。
㈡不必抄題，作答時請將試題題號及答案依照順序寫在試卷上，於本試題上作答者，不予計分。
㈢本科目除專門名詞或數理公式外，應使用本國文字作答。
㈣作答時，請參閱附表一、附表二及附表三。

一、某路段調查車輛速度如下所示，

81、76、79、72、71、60、40、59、36、49、59、65、
83、48、68、60、39、69、54、75、42、72、52、85

㈠請說明如何編製一速度次數分配表。（15分）

㈡車輛速度次數分配劃成直方圖。（5分）

㈢車輛速度次數分配劃成多邊形圖。（5分）

二、請以指數分配的隨機變數和卜瓦松（Poisson）分配的隨機變數，和兩者平均數之間的關係，分別以下述兩應用事件說明之（本題不必計算，只要論述）：（每小題10分，共20分）

㈠車禍事件。

㈡車輛進入停車場事件。

（附註：指數分配之機率函數為 $P(x)=\frac{1}{\mu}e^{-x/\mu}$，其中 $x>0$）

（附註：卜瓦松分配之機率函數為 $P(x)=\frac{\lambda^{x}\exp(-\lambda)}{x!}$，其中 $x=0,1,2\ldots$ 且 $0<\lambda<\infty$）

三、想了解汽車使用的平均年限，對30位成年駕駛者調查，汽車使用平均年限為5.6年，假設母體標準差是0.8年。請問：（每小題5分，共15分）

㈠最好的母體汽車使用平均值為何？

㈡在95%信賴區間，母體汽車使用平均值為何？

㈢在99%信賴區間，母體汽車使用平均值為何？

四、路口 1 的右轉車流量（X）和路口 2 的車流量（Y），調查資料如下：（每小題 10 分，共 40 分）

X ： 9、 3、 7、 4、 6、 8、 3、 5、 8、 6

Y ：22、 9、22、12、14、24、 5、 9、18、16

㈠請計算 X 和 Y 的相關係數。

㈡請計算簡單直線回歸 $Y=b_0+b_1X$。

㈢請以 t 值檢定 b_1 在 $\alpha=0.05$ 是否為零。

㈣請以 ANOVA 檢定 $Y=b_0+b_1X$ 在 $\alpha=0.05$ 之顯著性。

附表一：標準常態分配表

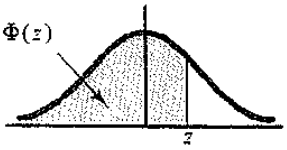

z	.00	.01	.02	.03	.04	.05	.06	.07	.08	.09
0.0	.5000	.5040	.5080	.5120	.5160	.5199	.5239	.5279	.5319	.5359
0.1	.5398	.5438	.5478	.5517	.5557	.5596	.5636	.5675	.5714	.5753
0.2	.5793	.5832	.5871	.5910	.5948	.5987	.6026	.6064	.6103	.6141
0.3	.6179	.6217	.6255	.6293	.6331	.6368	.6406	.6443	.6480	.6517
0.4	.6554	.6591	.6628	.6664	.6700	.6736	.6772	.6808	.6844	.6879
0.5	.6915	.6950	.6985	.7019	.7054	.7088	.7123	.7157	.7190	.7224
0.6	.7257	.7291	.7324	.7357	.7389	.7422	.7454	.7486	.7517	.7549
0.7	.7580	.7611	.7642	.7673	.7704	.7734	.7764	.7794	.7823	.7852
0.8	.7881	.7910	.7939	.7967	.7995	.8023	.8051	.8078	.8106	.8133
0.9	.8159	.8186	.8212	.8238	.8264	.8289	.8315	.8340	.8365	.8389
1.0	.8413	.8438	.8461	.8485	.8508	.8531	.8554	.8577	.8599	.8621
1.1	.8643	.8665	.8686	.8708	.8729	.8749	.8770	.8790	.8810	.8830
1.2	.8849	.8869	.8888	.8907	.8925	.8944	.8962	.8980	.8997	.9015
1.3	.9032	.9049	.9066	.9082	.9099	.9115	.9131	.9147	.9162	.9177
1.4	.9192	.9207	.9222	.9236	.9251	.9265	.9278	.9292	.9306	.9319
1.5	.9332	.9345	.9357	.9370	.9382	.9394	.9406	.9418	.9429	.9441
1.6	.9452	.9463	.9474	.9484	.9495	.9505	.9515	.9525	.9535	.9545
1.7	.9554	.9564	.9573	.9582	.9591	.9599	.9608	.9616	.9625	.9633
1.8	.9641	.9649	.9656	.9664	.9671	.9678	.9686	.9693	.9699	.9706
1.9	.9713	.9719	.9726	.9732	.9738	.9744	9750	.9756	.9761	.9767
2.0	.9772	.9778	.9783	.9788	.9793	.9798	.9803	.9808	.9812	.9817
2.1	.9821	.9826	.9830	.9834	.9838	.9842	.9846	.9850	.9854	.9857
2.2	.9861	.9864	.9868	.9871	.9875	.9878	.9881	.9884	.9887	.9890
2.3	.9893	.9896	.9898	.9901	.9904	.9906	.9909	.9911	.9913	.9916
2.4	.9918	.9920	.9922	.9925	.9927	.9929	.9931	.9932	.9934	.9936
2.5	.9938	.9940	.9941	.9943	.9945	.9946	.9948	.9949	.9951	.9952
2.6	.9953	.9955	.9956	.9957	.9959	.9960	.9961	.9962	.9963	.9964
2.7	.9965	.9966	.9967	.9968	.9969	.9970	.9971	.9972	.9973	.9974
2.8	.9974	.9975	.9976	.9977	.9977	.9978	.9979	.9979	.9980	.9981
2.9	.9981	.9982	.9982	.9983	.9984	.9984	.9985	.9985	.9986	.9986
3.0	.9987	.9987	.9987	.9988	.9988	.9989	.9989	.9989	.9990	.9990
3.1	.9990	.9991	.9991	.9991	.9992	.9992	.9992	.9992	.9993	.9993
3.2	.9993	.9993	.9994	.9994	.9994	.9994	.9994	.9995	.9995	.9995
3.3	.9995	.9995	.9995	.9996	.9996	.9996	.9996	.9996	.9996	.9997
3.4	.9997	.9997	.9997	.9997	.9997	.9997	.9997	.9997	.9997	.9998

附表二：t—分配右尾百分點$t_\alpha(d.f.)$

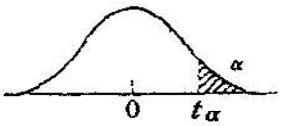

d.f.	α .25	.1	.05	.025	.01	.005
1	1.000	3.078	6.314	12.706	31.821	63.657
2	.816	1.886	2.920	4.303	6.965	9.925
3	.765	1.638	2.353	3.182	4.541	5.841
4	.741	1.533	2.132	2.776	3.747	4.604
5	.727	1.476	2.015	2.571	3.365	4.032
6	.718	1.440	1.943	2.447	3.143	3.707
7	.711	1.415	1.895	2.365	2.998	3.499
8	.706	1.397	1.860	2.306	2.896	3.355
9	.703	1.383	1.833	2.262	2.821	3.250
10	.700	1.372	1.812	2.228	2.764	3.169
11	.697	1.363	1.796	2.201	2.718	3.106
12	.695	1.356	1.782	2.179	2.681	3.055
13	.694	1.350	1.771	2.160	2.650	3.012
14	.692	1.345	1.761	2.145	2.624	2.977
15	.691	1.341	1.753	2.131	2.602	2.947
16	.690	1.337	1.746	2.120	2.583	2.921
17	.689	1.333	1.740	2.110	2.567	2.898
18	.688	1.330	1.734	2.101	2.552	2.878
19	.688	1.328	1.729	2.093	2.539	2.861
20	.687	1.325	1.725	2.086	2.528	2.845
21	.686	1.323	1.721	2.080	2.518	2.831
22	.686	1.321	1.717	2.074	2.508	2.819
23	.685	1.319	1.714	2.069	2.500	2.807
24	.685	1.318	1.711	2.064	2.492	2.797
25	.684	1.316	1.708	2.060	2.485	2.787
26	.684	1.315	1.706	2.056	2.479	2.779
27	.684	1.314	1.703	2.052	2.473	2.771
28	.683	1.313	1.701	2.048	2.467	2.763
29	.683	1.311	1.699	2.045	2.462	2.756
30	.683	1.310	1.697	2.042	2.457	2.750
40	.681	1.303	1.684	2.021	2.423	2.704
60	.679	1.296	1.671	2.000	2.390	2.660
120	.677	1.289	1.658	1.980	2.358	2.617
∞	.674	1.282	1.645	1.960	2.326	2.576

附表三：F 分配右尾百分點 $F_\alpha(\upsilon_1,\upsilon_2)$

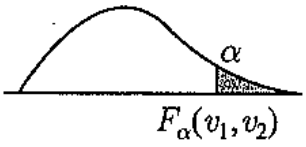

$\alpha = 0.05$

v_2 \ v_1	1	2	3	4	5	6	7	8	9
1	161.45	199.50	215.71	224.58	230.16	233.99	236.77	238.88	240.54
2	18.513	19.000	19.164	19.247	19.296	19.330	19.353	19.371	19.385
3	10.128	9.5521	9.2766	9.1172	9.0135	8.9406	8.8868	8.8452	8.8123
4	7.7086	6.9443	6.5914	6.3883	6.2560	6.1631	6.0942	6.0410	5.9988
5	6.6079	5.7861	5.4095	5.1922	5.0503	4.9503	4.8759	4.8183	4.7725
6	5.9874	5.1433	4.7571	4.5337	4.3874	4.2839	4.2066	4.1468	4.0990
7	5.5914	4.7374	4.3468	4.1203	3.9715	3.8660	3.7870	3.7257	3.6767
8	5.3177	4.4590	4.0662	3.8378	3.6875	3.5806	3.5005	3.4381	3.3881
9	5.1174	4.2565	3.8626	3.6331	3.4817	3.3738	3.2927	3.2296	3.1789
10	4.9646	4.1028	3.7083	3.4780	3.3258	3.2172	3.1355	3.0717	3.0204
11	4.8443	3.9823	3.5874	3.3567	3.2039	3.0946	3.0123	2.9480	2.8962
12	4.7472	3.8853	3.4903	3.2592	3.1059	2.9961	2.9134	2.8486	2.7964
13	4.6672	3.8056	3.4105	3.1791	3.0254	2.9153	2.8321	2.7669	2.7144
14	4.6001	3.7389	3.3439	3.1122	2.9582	2.8477	2.7642	2.6987	2.6458
15	4.5431	3.6823	3.2874	3.0556	2.9013	2.7905	2.7066	2.6408	2.5876
16	4.4940	3.6337	3.2389	3.0069	2.8524	2.7413	2.6572	2.5911	2.5377
17	4.4513	3.5915	3.1968	2.9647	2.8100	2.6987	2.6143	2.5480	2.4943
18	4.4139	3.5546	3.1599	2.9277	2.7729	2.6613	2.5767	2.5102	2.4563
19	4.3808	3.5219	3.1274	2.8951	2.7401	2.6283	2.5435	2.4768	2.4227
20	4.3513	3.4928	3.0984	2.8661	2.7109	2.5990	2.5140	2.4471	2.3928
21	4.3248	3.4668	3.0725	2.8401	2.6848	2.5727	2.4876	2.4205	2.3661
22	4.3009	3.4434	3.0491	2.8167	2.6613	2.5491	2.4638	2.3965	2.3419
23	4.2793	3.4221	3.0280	2.7955	2.6400	2.5277	2.4422	2.3748	2.3201
24	4.2597	3.4028	3.0088	2.7763	2.6207	2.5082	2.4226	2.3551	2.3002
25	4.2417	3.3852	2.9912	2.7587	2.6030	2.4904	2.4047	2.3371	2.2821
26	4.2252	3.3690	2.9751	2.7426	2.5868	2.4741	2.3883	2.3205	2.2655
27	4.2100	3.3541	2.9604	2.7278	2.5719	2.4591	2.3732	2.3053	2.2501
28	4.1960	3.3404	2.9467	2.7141	2.5581	2.4453	2.3593	2.2913	2.2360
29	4.1830	3.3277	2.9340	2.7014	2.5454	2.4324	2.3463	2.2782	2.2229
30	4.1709	3.3158	2.9223	2.6896	2.5336	2.4205	2.3343	2.2662	2.2107
40	4.0848	3.2317	2.8387	2.6060	2.4495	2.3359	2.2490	2.1802	2.1240
60	4.0012	3.1504	2.7581	2.5252	2.3683	2.2540	2.1665	2.0970	2.0401
120	3.9201	3.0718	2.6802	2.4472	2.2900	2.1750	2.0867	2.0164	1.9588
∞	3.8415	2.9957	2.6049	2.3719	2.2141	2.0986	2.0096	1.9384	1.8000

108年公務人員特種考試警察人員、一般警察人員考試及108年特種考試交通事業鐵路人員、退除役軍人轉任公務人員考試試題

考 試 別：警察人員考試
等　　別：三等考試
類 科 別：交通警察人員交通組
科　　目：交通警察學（包括交通行政與組織、交通法規與執法、交通事故處理與偵查、交通安全策略與宣導）
考試時間：2小時　　座號：＿＿＿＿＿＿

※注意：㈠禁止使用電子計算器。
㈡不必抄題，作答時請將試題題號及答案依照順序寫在試卷上，於本試題上作答者，不予計分。
㈢本科目除專門名詞或數理公式外，應使用本國文字作答。

一、都會區交通壅塞，一直是世界各大都市所面臨棘手的問題，對每日通勤的上班族而言，無異是一場惡夢，也是身為交通警察每天必須疏導處理的工作。請問：
㈠道路交通壅塞可概分為那幾類？（10分）
㈡你身為一位交通警察人員，請分析以上交通壅塞形成的原因各為何？（15分）

二、「酒後駕車，害人害己」已是社會大眾琅琅上口的一句話，但對於少數酒駕者而言，認為「只要未發生交通事故，拒絕警察酒測便可不受刑法制裁，罰錢了事而已」。請問：
㈠依目前法規這種說法是否正確，理由為何？（10分）
㈡警察人員對於明顯酒後駕車之駕駛人，雖未肇事但拒絕接受酒精濃度測試檢定者，應踐行之執法程序（處置作為）為何？（15分）

三、交通事故發生時，很多人第一句話都會問「誰違規？」似乎違規的一方當事人便應負擔主要的肇事責任。請問：
㈠這種說法你是否同意，理由為何？（10分）
㈡又很多交通事故發生的地點是位於無號誌化路（巷）口，請說明行車至無號誌化路（巷）口且無交通指揮人員指揮時，其行進、轉彎的路權規定為何？（15分）

四、警察單位經常會執行許多「交通專案」的重點性工作，在該專案期間，針對某項違規行為就是嚴格執法，對其他的違規行為可能就是另一套標準，造成民眾經常會有「為什麼昨天可以，今天就不行？」的昨是今非錯覺，也打擊了警察交通執法威信。請問：
㈠如何利用科技智慧執法改善上述情形，達到「刑期於無刑」目標？（15分）
㈡而在運用科技執法之際，應有那些法律原則必須加以注意？（10分）

代號：30150-30750
50140-51340
70150-70450
13150-13750
頁次：3－1

108年公務人員特種考試警察人員、一般警察人員考試及108年特種考試交通事業鐵路人員、退除役軍人轉任公務人員考試試題

考　試　別：一般警察人員考試、警察人員考試、鐵路人員考試、退除役軍人轉任公務人員考試
等　　別：三等考試、高員三級考試
類　科　別：各類別、各類科
科　　目：國文（作文、公文與測驗）
考試時間：2小時　　座號：_____

※注意：禁止使用電子計算器。

甲、作文與公文部分：

㈠請以藍、黑色鋼筆或原子筆在申論試卷上由左至右橫式作答，於本試題上作答者，不予計分。
㈡不得於試卷上書寫姓名或入場證號。

一、作文：（60分）

在過去的時代裏，所謂「閱讀」，讀的是紙本的書籍，但在今天的數位時代，由於人們普遍使用電腦、網路、手機，閱讀的習慣改變了，愈來愈多的人不再接觸紙本書籍，這樣的改變有什麼得與失呢？請以「數位閱讀的得與失」為題，作文一篇，闡述你的體會與看法。

二、公文：（20分）

請參考下述資訊，試擬教育部致各直轄市、縣市政府函：轉知行政院農業委員會動植物防疫檢疫局建置有「非洲豬瘟資訊專區」網站暨相關宣導資料，請協助向轄境學校教職員工學生及家長宣導，共同防範非洲豬瘟，防杜疫病入侵。

一、去（107）年8月3日中國大陸首例非洲豬瘟爆發，至今（108）年4月19日其全境均已傳出疫情。
二、我國政府於去年12月18日成立跨部會非洲豬瘟中央災害應變中心。
三、非洲豬瘟係由病毒引起的具高度傳染性豬隻疫病，其豬隻發病率及致死率極高，但不會傳染人類。
四、該病以接觸傳染為主，可經由廚餘、節肢動物、動物分泌物或排泄物、車輛及人員夾帶物品等方式傳播。
五、其病毒可長期存在於環境、排泄物（例如豬舍及糞便）；以及豬肉製品（冷藏豬肉100天、冷凍豬肉1,000天）。
六、切勿網購或攜帶任何疫區的豬肉製品入境，違規者最高可處7年以下有期徒刑，得併科新臺幣300萬元以下罰金。
七、行政院農業委員會函教育部，說明該會動植物防疫檢疫局建置有「非洲豬瘟資訊專區」網站（https://www.baphiq.gov.tw/）暨相關宣導資料，並請協助宣導。

乙、測驗部分：（20 分）　　代號：5301、4501

㈠本測驗試題為單一選擇題，請選出一個正確或最適當的答案，複選作答者，該題不予計分。
㈡共 10 題，每題 2 分，須用 2B 鉛筆在試卡上依題號清楚劃記，於本試題或申論試卷上作答者，不予計分。

1　下列成語運用正確的選項是：
(A)葉老師的課程「不可言喻」，緣自於他固執的性格
(B)出國深造之後，閔閔的學問已到達「升堂入室」的境界
(C)謙謙經常擺出「神氣活現」的姿態，他的父母感到十分寬慰
(D)他最近出了一本「言之鑿鑿」的小說，賺進一筆為數不小的版稅

2　《孟子•梁惠王》：「君子之於禽獸也，見其生，不忍見其死；聞其聲，不忍食其肉。是以君子遠庖廚也。」
根據上文，下列選項最適合「君子」的描述是：
(A)重視養生　(B)遠離肉食　(C)事死如生　(D)愛惜生命

3　狙氏子不得父術，而得雞之性焉。其畜養者，冠距不舉，毛羽不彰，兀然若無飲啄意。洎見敵，則他雞之雄也；伺晨，則他雞之先也，故謂之天雞。狙氏子死，傳其術於子焉。乃反先人之道，非毛羽彩錯嘴距銛利者，不與其棲。無復向時伺晨之儔，見敵之勇，峨冠高步，飲啄而已。吁！道之壞也，有是夫！（羅隱《讒書》）
依據上文，狙氏子所飼雞隻的特徵是：
(A)身形魁梧，制敵機先　(B)其貌不揚，實則雄武
(C)威武不屈，氣定神閒　(D)外表剛勇，色厲內荏

4　承上題，上文「道之壞也」所歎惋的「壞」是：
(A)巧言令色，欺上瞞下　(B)怯於公戰，勇於私鬥
(C)棄實務華，只求形似　(D)門庭衰薄，後繼無人

5　齊桓公北伐山戎氏，其道過燕，燕君逆而出境。桓公問管仲曰：「諸侯相逆，固出境乎？」管仲曰：「非天子不出境。」桓公曰：「然則燕君畏而失禮也，寡人不道而使燕君失禮。」乃割燕君所至之地以與燕君。諸侯聞之，皆朝於齊。（《說苑．貴德》）
根據上文，諸侯皆向齊國朝拜的主要原因是：
(A)諸侯心服齊國教化　(B)諸侯爭相討好齊國
(C)齊國能夠尊重諸侯　(D)齊國武力威嚇諸侯

6　晏元獻公喜評詩，嘗曰：「『老覺腰金重，慵便枕玉涼』未是富貴語。不如『笙歌歸院落，燈火下樓台』。此善言富貴者也。」（歐陽脩《歸田錄》）
上文中認為後詩較前詩「善言富貴」的主要原因為何？
(A)院落、樓台實較黃金、美玉更為珍貴　(B)前詩所描繪的生活比較缺乏積極意味
(C)後詩比前詩多了雍容風雅的生活品味　(D)後詩暗示夜夜笙歌、貴客盈門的生活

7 一個道：「我今日看見一張顏魯公的墨跡，那骨董掮客要一千元，字寫得真好，看了他，再看那石刻的碑帖，便毫無精神了。」一個道：「只要是真的，就是一千元也不貴，何況他總還要讓點呢！但不知寫的是甚麼？」那一個道：「寫的是蘇東坡〈前赤壁賦〉。」這一個道：「那麼明日叫他送給我看。」我方才好容易把笑忍住了，忽然又聽了這一問一答，又害得我咬牙忍住；爭奈肚子裡偏要笑出來，倘再忍住，我的肚腸可要脹裂了。（《二十年目睹之怪現狀》）

上文所述，可笑之處何在？

(A)搞錯作者－〈前赤壁賦〉的作者是蘇轍而非蘇東坡

(B)不識貨－顏真卿墨寶難得卻還錙銖必較、討價還價

(C)有眼無珠－作者「我」即是顏魯公，旁人不識泰山

(D)不辨真偽－顏真卿乃唐人，無法寫宋代蘇軾的文章

8 「『痛苦』和『快樂』其實一牆之隔，他們是一對孿生兄弟。譬如一位嗜好閱讀或聽音樂的人，弄到後來，愛閱讀的人總想再往前跨一步，也能成為作家；愛樂者也一樣，總有一天，他渴望自己成為小提琴家、鋼琴家、聲樂家或者指揮家，而這跨越的一步，就會碰觸痛苦。所以嗜好還是止於做一位玩票者，對名和利推得愈遠愈好。」

下列選項，何者最接近上文旨意？

(A)心無罣礙，得大自在　(B)保持距離，以免沉溺

(C)美感體驗，遠香近臭　(D)當局者迷，旁觀者清

9 「所謂『線性關係』是指在同一個個體中，會有過去、現在、未來的時間變化。如果能跳出『線性關係』的侷限，可以使我們對人生產生更圓融的看法。譬如一般人看一根木柴燒成灰燼，會認為木柴在先，灰燼在後。但是，我們不要以為『後來的灰燼』就是『以前的木柴』，意即木柴就是木柴，灰燼就是灰燼，因為每一個剎那都是獨立的，都是『無盡的現在』。」

根據上文，下列選項何者並非「線性關係」？

(A)清水凝結成冰　(B)少女變成老婦　(C)父母孕育子女　(D)種子開花結果

10 「有自信的老闆不喜歡唯唯諾諾的員工，因為這樣的員工不能提供不同的想法；他也不會喜歡傲慢的部屬，因為他們常惹是生非。員工最喜歡的老闆，也是有自信的老闆，因為他不需要用凶狠來維持權威。」

下列選項，何者最符合文中所描述「有自信的老闆」？

(A)身先士卒，賞罰分明　(B)兢兢業業，勇於突破

(C)術業專精，心態開放　(D)洞燭機先，有守有為

測驗式試題標準答案

考試名稱：108年公務人員特種考試警察人員、一般警察人員考試及108年特種考試交通事業鐵路人員、退除役軍人轉任公務人員考試

類科名稱：犯罪防治人員預防組、警察法制人員、警察資訊管理人員、外事警察人員（選試英語）、行政管理人員、行政警察人員、水上警察人員、刑事鑑識人員、公共安全人員、消防警察人員、國境警察人員、交通警察人員交通組、刑事警察人員

科目名稱：國文（作文、公文與測驗）（試題代號：4501）

單選題數：10題　　單選每題配分：2.00分

複選題數：　　複選每題配分：

標準答案：

題號	第1題	第2題	第3題	第4題	第5題	第6題	第7題	第8題	第9題	第10題
答案	B	D	B	C	C	C	D	A	C	C

題號	第11題	第12題	第13題	第14題	第15題	第16題	第17題	第18題	第19題	第20題
答案										

題號	第21題	第22題	第23題	第24題	第25題	第26題	第27題	第28題	第29題	第30題
答案										

題號	第31題	第32題	第33題	第34題	第35題	第36題	第37題	第38題	第39題	第40題
答案										

題號	第41題	第42題	第43題	第44題	第45題	第46題	第47題	第48題	第49題	第50題
答案										

題號	第51題	第52題	第53題	第54題	第55題	第56題	第57題	第58題	第59題	第60題
答案										

題號	第61題	第62題	第63題	第64題	第65題	第66題	第67題	第68題	第69題	第70題
答案										

題號	第71題	第72題	第73題	第74題	第75題	第76題	第77題	第78題	第79題	第80題
答案										

題號	第81題	第82題	第83題	第84題	第85題	第86題	第87題	第88題	第89題	第90題
答案										

題號	第91題	第92題	第93題	第94題	第95題	第96題	第97題	第98題	第99題	第100題
答案										

備　　註：

108年公務人員特種考試警察人員、一般警察人員考試及108年特種考試交通事業鐵路人員、退除役軍人轉任公務人員考試試題

代號：50110-50510
50710-51010
51210-51310
頁次：6－1

考 試 別：警察人員考試
等　　別：三等考試
類 科 別：行政警察人員、外事警察人員（選試英語）、刑事警察人員、公共安全人員、犯罪防治人員預防組、交通警察人員交通組、警察資訊管理人員、刑事鑑識人員、國境警察人員、警察法制人員、行政管理人員
科　　目：中華民國憲法與警察專業英文
考試時間：2小時　　座號：_____

※注意：禁止使用電子計算器。

甲、申論題部分：（25分）

㈠不必抄題，作答時請將試題題號及答案依照順序寫在申論試卷上，於本試題上作答者，不予計分。
㈡請以藍、黑色鋼筆或原子筆在申論試卷上作答。

一、英譯中：請將下列英文譯為中文（10分）

The prevalence of social media has triggered many new, often anonymous, forms of violence that take place exclusively online. Cyber-bullying generally involves using the Internet to threaten, harm, or socially exclude others. The most frequent form of bullying is writing a mean comment on someone's photo or posts on social media sites.

二、中譯英：請將下列中文譯為英文（15分）

盜用身分指的是藉由盜取個資進行詐欺行為，例如申請信用卡、報稅、或是獲得醫療服務。小孩和老年人是這種詐欺行為最容易下手的受害者。要是發生在小孩身上，受害者可能在多年之後，已經成年要申請貸款時才發現身分被盜用。至於老年人，因為他們常常把個資告知醫師或照護者，結果讓自己擔著身分被盜用的風險。

乙、測驗題部分：（75分）　　代號：1501

㈠本測驗試題為單一選擇題，請選出一個正確或最適當的答案，複選作答者，該題不予計分。
㈡共60題，每題1.25分，須用2B鉛筆在試卡上依題號清楚劃記，於本試題或申論試卷上作答者，不予計分。

1 關於地方自治團體之財政，依司法院大法官解釋意旨，下列敘述何者錯誤？
(A)地方自治團體受憲法保障，其施政所需之經費負擔涉及財政自主權事項，並無法律保留原則之適用
(B)基於國家整體施政之需要，對地方負有協力義務之事項，中央得依據法律使地方分擔相關經費
(C)法律之實施須由地方負擔經費者，於立法過程中，應給予地方政府充分之參與
(D)中央對地方為補助時，立法院不得逕因地方自治團體行政機關之公務員未到會備詢，而據以為刪減或擱置中央機關對地方自治團體補助款預算之理由

2 依憲法規定，由中央立法並執行之，或交由省縣執行之事項，下列何者不屬之？
(A)警政　(B)公用徵收　(C)郵政、電信　(D)失業救濟

3 依現行制度，得聲請司法院大法官釋憲之主體，不包括下列何者？
(A)最高法院　(B)總統府
(C)臺中高等行政法院法官　(D)考試院

4 關於法官之身分保障，下列敘述何者正確？
(A)憲法上的法官，皆享有終身職保障
(B)憲法上的法官，皆享有免於停職、轉任或減俸之保障
(C)各級法院庭長職務之任免，屬於憲法上法官身分保障之範圍
(D)有關庭長之遴選及任免等相關人事行政事項，涉及法院組織，應以法律規定為宜

5 依憲法增修條文規定，關於考試院院長與考試委員，下列敘述何者錯誤？
(A)考試院院長與考試委員，由總統提名，經立法院同意任命之
(B)考試院院長由考試委員擔任
(C)考試委員之人數與任期屬法律保留事項
(D)考試委員應超出黨派，依據法律獨立行使職權

6 依司法院大法官解釋，有關憲法隱私權之敘述，下列何者錯誤？
(A)個人在公共場合之言行也受到隱私權保障
(B)個人資料之自主控制受隱私權保障
(C)檢察官若認為某人有犯罪嫌疑，且情況急迫，即得核發通訊監察書，監控其通訊
(D)受刑人對外發受之書信，仍受憲法隱私權及秘密通訊自由之保障

7 所得稅法規定，納稅義務人之子女年滿 20 歲以上，因在學校就學，受納稅義務人扶養者，於計算個人綜合所得淨額時，得減除此項扶養親屬免稅額。財政部函釋則認為：臺灣地區人民年滿 20 歲，就讀學歷未經教育部認可之大陸地區學校者，不得依上述規定列報扶養親屬免稅額。此一函釋違反下列何項原則？
(A)租稅法定主義 (B)實質課稅原則 (C)比例原則 (D)明確性原則

8 依司法院大法官解釋，關於人民應考試權，下列敘述何者正確？
(A)包括人民參加考試，取得專門職業及技術人員執業資格之權利
(B)包括人民參加國立大學研究所入學考試之權利
(C)對於應考試權之限制，應以法律為之，並不得授權行政機關另訂行政命令
(D)要求以外國學歷應牙醫師考試者，須在主管機關認可之醫療機構完成臨床實作訓練的規定，違憲

9 依司法院大法官解釋，關於工作權限制規定之審查，下列敘述何者錯誤？
(A)對於營業之方式、時間、地點所為之管制，須係為追求「公共利益」所必要者，始得為之
(B)人民選擇職業應具備之主觀條件，例如年齡、道德標準等條件，須係為追求「公共利益」所必要者，始得為之
(C)要求人民從事職業應具備一定之技能、訓練、體能等條件，須係為追求「重要之公共利益」所必要者，始得為之
(D)設定進入市場之數量限制條件，與申請執業之個人特質無關，且該條件之成就與否非該個人所能左右者，須係為追求「特別重要之公共利益」所必要者，始得為之

10 依司法院釋字第 719 號解釋意旨，政府採購得標廠商員工總人數逾 100 人者應進用一定比例原住民，未進用者令繳代金之規定未違憲。下列敘述，何者正確？
(A)相關規定涉及雇主財產權及營業自由之限制，另有保障原住民工作權之給付請求權性質
(B)得標廠商僱用員工之自由，因保障原住民權益之重要公益而應受合理之限制
(C)未獲政府採購得標廠商僱用之原住民，得請求國家提供至另一廠商工作之機會
(D)得標廠商應繳納之代金金額，其額度應達到使其未來有意願僱用原住民之程度

11 依司法院大法官解釋，關於憲法第 7 條之平等保障，下列敘述何者錯誤？
(A)於選舉制度中，保障婦女或原住民族之當選名額，與憲法第 7 條平等原則並不當然牴觸
(B)無正當理由而對相同事物為差別待遇，或對於不同事物未為合理之差別待遇，均屬違反平等原則
(C)依公營事業移轉民營條例，就原具公務人員身分之留用人員原有年資辦理結算，與平等原則尚無牴觸
(D)道路交通管理處罰條例不准曾犯特定罪名且經判決罪刑確定者，辦理營業小客車駕駛人執業登記，與平等原則不符

12 下列何者不涉及憲法保障之結社自由？
(A)法律規定審計長不得加入政黨 (B)人民團體理事長之選任產生方式
(C)法律強制律師須加入律師公會始能執業 (D)一群人於同一時間在電影院觀看電影

13 依司法院大法官解釋意旨，下列何者不受憲法第 13 條宗教自由之保障？
(A)公職人員擔任特定宗教法人之義工 (B)公立小學與宗教團體合作實施宗教課程
(C)人民向主管機關申請設立新興宗教團體 (D)公立大學宗教性學生社團向校方申請經費補助

14 依司法院大法官解釋，下列何者並不適用嚴格審查標準？
(A)對一般人民言論之「事前審查」 (B)對「新聞媒體」採訪行為之干預
(C)對言論「內容或觀點」之限制 (D)對「非視障者從事按摩業之職業自由」之限制

15 依司法院大法官解釋，國家得限制下列何種身分人民之入境自由？
(A)曾協助他人非法入出境之有戶籍人民 (B)於境內出生而僑居國外之無戶籍人民
(C)實際居住地與戶籍登記地不同之人民 (D)設籍國內但具有雙重國籍之人民

16 依司法院大法官解釋，關於憲法第 8 條人身自由之保障，下列敘述何者正確？
(A)以行政法作為限制人身自由之法律依據時，雖非刑事上之逮捕拘禁，亦僅得由具組織法上之形式「警察」為之
(B)以行政法作為限制人身自由之法律依據時，非屬刑事上之逮捕拘禁，因未涉人身自由之核心，不受比例原則之拘束
(C)以行政法作為限制人身自由之法律依據時，雖非刑事上之逮捕拘禁，仍受憲法正當法律程序之保障
(D)以行政法作為限制人身自由之法律依據時，因非屬刑事上之逮捕拘禁，均毋須法院之事前許可

17 有關憲法增修條文第 10 條第 8 項社會救助、社會福利之規定，下列敘述何者錯誤？
(A)具有憲法委託的性質
(B)立法者對如何立法實現社會福利工作，具有裁量權
(C)立法者如未立法保障社會弱勢族群之就業，可能構成違憲之立法怠惰
(D)國家對於各項社會福利工作之支出均應優先編列

18 依憲法增修條文有關基本國策之規定，下列敘述何者正確？
(A)經濟發展與環境保護應兼籌並顧，當二者衝突時，以環境保護為優先
(B)國家應扶助並保護大型經濟事業
(C)國家應促進產業升級，推動農漁業現代化，重視水資源開發利用
(D)為求市場自由化，國家對於公營金融機構之管理，不得以法律特別規定

19 依司法院大法官解釋，有關法官依據法律獨立審判，下列敘述何者正確？
(A)法官在個案審理中，得逕行拒絕適用其認為牴觸憲法之法律
(B)法官如認判例違憲，得聲請大法官解釋
(C)法官在個案審理中，得逕行拒絕適用其認為牴觸法律之法規命令
(D)法官縱認判例違憲，於審判時仍不得拒絕適用之

20 某甲因拒繳所得稅，國稅局命甲補稅，甲用盡通常救濟程序後，向司法院大法官聲請解釋。依司法院大法官解釋，以下敘述何者正確？
(A)如大法官宣告所得稅法相關規定違憲且立即失效，甲仍不得依大法官解釋而提起再審
(B)如大法官宣告所得稅法相關規定違憲且定期失效，甲仍可依大法官解釋而提起再審
(C)於大法官作成解釋前，甲就因同一法律規定而生之另一補稅事件，再聲請大法官解釋，如大法官未併案審理，後案即無從提起再審
(D)於大法官作成解釋前，甲因同一法律規定又收到另一補稅處分，得逕行向司法院大法官聲請解釋併案審理

21 依憲法增修條文規定，有關行政院，下列敘述何者錯誤？
(A)行政院院長由總統任命之
(B)行政院院長辭職或出缺時，在總統未任命行政院院長前，由行政院副院長暫行代理
(C)行政院有向立法院提出施政報告之責
(D)行政院對於立法院決議之法律案認為窒礙難行時，得移請立法院覆議，毋需經總統核可

22 下列何者應經行政院院長之副署？
(A)任免依憲法經立法院同意任命人員之命令 (B)宣告解散立法院
(C)發布大赦令 (D)召開國家安全會議

23 依憲法增修條文規定，關於監察院組織與職權，下列敘述何者錯誤？
(A)監察委員不具有言論免責權與不逮捕特權 (B)監察委員對總統無彈劾權
(C)監察委員本身不受彈劾 (D)監察院無人事同意權

24 依憲法增修條文規定，關於總統、副總統之選舉與罷免，下列敘述何者錯誤？
(A)總統、副總統候選人應聯名登記
(B)總統、副總統之當選，採相對多數
(C)總統、副總統之罷免案，經全體立法委員四分之一之提議，全體立法委員三分之二之同意後提出
(D)總統、副總統之罷免案，經中華民國自由地區全體選舉人總額三分之二以上之投票，有效票過半數同意罷免時，即為通過

25 依司法院大法官解釋，下列何者與藥害救濟制度之設置無關？
(A)生存權之保障 (B)健康權之保障
(C)社會福利救濟措施之實現 (D)財產權之保障

26 關於為新聞採訪之目的所實施之跟追行為，依司法院大法官解釋，下列敘述何者錯誤？
(A)受憲法第 22 條之一般行為自由保障 (B)受憲法第 8 條之人身自由保障
(C)受憲法第 15 條之工作權保障 (D)受憲法第 11 條之新聞採訪自由保障

27 依司法院大法官解釋，下列何者屬於人格權直接保障之範圍？
(A)更改姓名 (B)免於因罹患傳染病而受強制隔離
(C)就讀研究所 (D)表達政治意見

28 依司法院大法官解釋，國家遭遇重大變故，在夫妻隔離，相聚無期之情況下所發生之重婚事件，若仍適用民法規定予以撤銷，牴觸憲法何項權利？
(A)平等權 (B)人身自由權 (C)訴訟權 (D)婚姻自由

29 依司法院大法官解釋，下列何種權利非受憲法第 22 條之保障？
(A)相同性別之二人無法依據民法親屬篇婚姻章結婚，主張婚姻自由受侵害
(B)人民欲更改姓名未獲准許，主張其姓名權受侵害
(C)未辦理營利事業登記而經營電子遊戲場業者遭受處罰，主張營業自由受侵害
(D)經常逃學或逃家之虞犯少年，被少年法院命收容於少年觀護所，主張少年人格權受侵害

30 「高級中等以下教育階段非學校型態實驗教育實施條例」之制定，係爲保障人民下列何種權利？
(A)家長之教育選擇權 (B)結社自由 (C)工作權 (D)平等權

31 依司法院大法官解釋，有關人民納稅義務之規定，下列敘述何者正確？
(A)租稅主管機關得頒訂解釋課稅構成要件之行政規則
(B)特別公課課徵之目的與用途與租稅相同
(C)地方得制定自治法規課徵租稅，無須法律之授權
(D)無論人民所得多寡一律課徵相同金額之租稅，不違反公平課稅原則

32 依憲法及相關法律規定，下列何者不是公民投票得適用之事項？
(A)法律之創制 (B)重大政策之創制 (C)修憲案之複決 (D)領土變更案之複決

33 司法院大法官解釋曾明文承認受表意自由保障者，不包括下列何者？
(A)經營通訊傳播網路等設施 (B)要求傳播媒體提供版面或時間以表達意見
(C)為獲取利潤而對大眾散播描繪性行為之影像 (D)為抗議拆遷而躺臥於挖土機前方

34 依司法院大法官解釋，關於憲法第 8 條所要求之法官保留，下列敘述何者正確？
(A)對於人身自由加諸任何限制時，皆須事前經由法官裁定，方得為之
(B)法官保留係屬憲法要求之法定程序內涵，但僅適用於具有刑事被告身分之人
(C)人民因犯罪嫌疑遭逮捕拘禁時，逮捕拘禁之機關至遲應於 24 小時內移送至該管法院
(D)人民遭到無權責機關之逮捕拘禁，得向法院聲請追究，法院應先命逮捕拘禁機關查覆後，再依法處理

35 依憲法增修條文規定，下列何者並非國家應優先編列之支出經費?
(A)醫療健保 (B)社會救助 (C)國民就業 (D)國民教育

36 依司法院大法官解釋，關於最高司法機關發布規則之權，下列敘述何者錯誤？
(A)最高司法機關得發布命令，但不得牴觸審判獨立
(B)最高司法機關得發布規則，就審理程序有關之細節性、技術性事項為規定
(C)最高司法機關得提供司法實務上之見解，作為所屬司法機關人員執行職務之依據
(D)最高司法機關發布之命令有涉及審判上之法律見解者，法官於審判案件時受其拘束

37 以下何者非屬立法委員依法對行政權所得行使之監督範圍？
(A)個別立法委員召開公聽會揭露有毒食品，指責衛生主管機關未進行有效監督
(B)個別立法委員調閱行政院性別平等處執行性別平等之文件資料
(C)個別立法委員提出質詢
(D)個別立法委員於委員會詢問參謀總長

38 依司法院大法官解釋，關於我國獨立機關之權限運作，下列敘述何者正確？
(A)行政院基於行政一體，對所有行政院所屬機關之整體施政表現負責，但不包括獨立機關
(B)基於權力分立原則，立法院對行政院有關獨立機關之人事決定權得為一定限制，以為制衡
(C)獨立機關之首長不得由其成員互相選任產生之
(D)行政院必要時得依職權設置相當於部會層級之獨立機關

39 關於監察院之職權，下列敘述何者正確？
(A)彈劾與糾舉行使之對象與事由相同
(B)彈劾案提出後，應由被彈劾者所屬公務機關追究其法律與政治責任
(C)糾舉案通過後，若違法行為涉及刑事者，應將案件移送被糾舉人之主管長官
(D)糾正案由監察委員 1 人以上之提議，9 人以上之審查及決定

40 依憲法增修條文規定及司法院大法官解釋，有關不信任案及解散立法院，以下敘述何者正確？
(A)於立法院提出不信任案時，行政院院長即得解散立法院
(B)不信任案不得於立法院常會以外之期間提出
(C)立法院除得對行政院院長提出不信任案外，亦得罷免之
(D)總統經行政院院長之呈請，並諮詢立法院院長後，得解散立法院

41 *Chicago P. D.*, an American TV drama, shows how the uniformed cops and the Intelligence Unit work together to combat _____ crime, drug trafficking, high profile murders and beyond.
(A)organized (B)modernized (C)coordinated (D)cooperated

42 Policewomen are often found to be more capable of talking their way through difficult situations or listening to _____ of domestic violence.
(A)victims (B)criminals (C)colleagues (D)inflictors

43 Although prosecutors and judges regard criminals' confessions as important, police investigators should also search for _____ by resorting to scientific methods.
(A)verdict (B)evidence (C)sentence (D)penalty

44 The police cannot arrest someone just because they highly _____ someone might be a criminal.
(A)praise (B)pretend (C)suspect (D)evaluate

45 Surveillance camera databases are becoming _____ tools for the police to solve criminal problems.
(A)useless (B)crucial (C)disturbing (D)controversial

46 Helen, a 16-year-old girl, was walking her dog at 6 in the morning in a park when she was _____. Someone called to threaten to kill her if the ransom was not paid.
(A)identified (B)kidnapped (C)mugged (D)robbed

47 At his second trial, Syed, then 19, was _____ of first-degree murder, and sentenced to life in prison plus 30 years.
(A)announced (B)assumed (C)convicted (D)decided

48 Some police officers have suffered post-_____ stress disorder symptoms after a disaster rescue operation and seeing too many corpses.
(A)modern (B)frontier (C)deadline (D)traumatic

49 Generally, police officers take an _____ at the beginning of their careers, which affirms their standards of integrity, bravery and honor.
(A)oath (B)elevator (C)usher (D)adventure

50 Becoming a police officer doesn't rely heavily on formal education; in fact, a high school _____ is often the minimum formal education required.
(A)transcript (B)resume (C)diploma (D)autobiography

請依下文回答第 51 題至第 55 題

(CNN Business) Tesla is selling its cars with the option of "full self-driving capability," a feature that's drawing criticism from experts on self-driving technology. Experts say Tesla's full self-driving feature is really a "partial" self-driving feature that handles minor driving tasks such as keeping pace with other cars on a highway and still requires diligent ___51___oversight. To most autonomous vehicle experts, "full self-driving" means a car in which a person could safely fall asleep ___52___ the wheel and the steering wheel and pedals aren't even needed. They say the general public doesn't understand this, and misperceptions abound. A 2018 study found that 71% of drivers believed they could purchase a self-driving car today, despite no fully autonomous vehicles being available for sale. Experts warn that this lack of understanding could be deadly as humans may put too much ___53___ in systems like Tesla's, leading to crashes. Part of the problem, according to experts, is that governing bodies haven't ___54___ a definition for self-driving vehicles. Some experts tell CNN Business that the government needs to step in to prevent businesses from misleading and confusing ___55___. One says, "Tesla's use of this term is totally irresponsible."

51 (A)human (B)animal (C)mechanical (D)computer

52 Ⓐupon Ⓑbeneath Ⓒbehind Ⓓagainst
53 Ⓐneed Ⓑtrust Ⓒeffort Ⓓobligation
54 Ⓐoperated Ⓑdissolved Ⓒoverthrown Ⓓstandardized
55 Ⓐmechanics Ⓑpedestrians Ⓒconsumers Ⓓpassengers

請依下文回答第 56 題至第 60 題

"Forensic science" means applying scientific methods and processes to solving crimes. Forensic science has become an integral part of many criminal cases and convictions. The extraordinary innovations and advancements in forensic science have allowed it to become a highly developed science that involves a number of disciplines. The field of forensic science draws from a number of scientific branches, including physics, chemistry, and biology, with its focus being on the recognition, identification, and evaluation of physical evidence. These scientific experts use microscopic examining techniques, complex instruments, mathematical principles, scientific principles, and reference literature to analyze evidence as to identify both class and individual characteristics. In the past decade, they have started using laser scanners, drones and photogrammetry to obtain 3D point clouds of accidents or crime scenes. Reconstruction of an accident scene on a highway using drones involves data acquisition time of only 10-20 minutes and can be performed without shutting down traffic. The majority of forensic scientists perform their jobs within the confines of the forensic laboratory or morgue; their work may also take them outside of the laboratory and to the crime scenes, where they observe the scene and collect evidence. Forensic scientists may work for local, state and federal law enforcement agencies and government, private laboratories, and hospitals. They may also serve as independent forensic science consultants.

56 Which of the following evaluations best shows the standing of forensic science?
Ⓐ It is a technology too complicated for the police to employ.
Ⓑ It is the only technology the police use to solve crimes.
Ⓒ It is nowadays helping the police a lot in solving crimes.
Ⓓ It is used to observe criminals' behavior.

57 Which of the following best describes forensic science?
Ⓐ It is an outdated study of science.
Ⓑ It is a new field of study not yet well-developed.
Ⓒ It is an old science just newly innovated.
Ⓓ It is a science that integrates many fields of study.

58 According to the passage, which of the following statements is true?
Ⓐ Reconstruction of an accident scene on a highway has to shut down traffic.
Ⓑ Using drones to reconstruct an accident scene takes too much time.
Ⓒ Reconstruction of an accident scene on a highway uses drones.
Ⓓ Using drones to reconstruct an accident scene may frighten drivers on a highway.

59 Which of the following statements is true about forensic scientists?
Ⓐ They only work in the laboratories to analyze evidence.
Ⓑ They do not need to visit the crime scenes to collect evidence.
Ⓒ They are not confined to laboratories to examine evidence.
Ⓓ They use high technology to play 3-D computer games.

60 According to the passage, which of the following statements is NOT true?
Ⓐ The contribution of forensic science is becoming much greater.
Ⓑ Forensic scientists only work for government agencies.
Ⓒ The contribution of forensic science exceeds scientific research.
Ⓓ One possible career path for a forensic scientist is to become an independent consultant.

測驗題標準答案更正

考試名稱：108年公務人員特種考試警察人員、一般警察人員考試及108年特種考試交通事業鐵路人員、退除役軍人轉任公務人員考試

類科名稱：行政警察人員、外事警察人員（選試英語）、刑事警察人員、公共安全人員、犯罪防治人員預防組、交通警察人員交通組、警察資訊管理人員、刑事鑑識人員、國境警察人員、警察法制人員、行政管理人員

科目名稱：中華民國憲法與警察專業英文

單選題數：60題　　單選每題配分：1.25分

複選題數：　　複選每題配分：

標準答案：答案標註#者，表該題有更正答案，其更正內容詳見備註。

題號	第1題	第2題	第3題	第4題	第5題	第6題	第7題	第8題	第9題	第10題
答案	A	C	B	D	B	C	A	A	B	B

題號	第11題	第12題	第13題	第14題	第15題	第16題	第17題	第18題	第19題	第20題
答案	D	D	B	B	B	C	D	C	C	B

題號	第21題	第22題	第23題	第24題	第25題	第26題	第27題	第28題	第29題	第30題
答案	D	C	C	D	D	B	A	D	C	A

題號	第31題	第32題	第33題	第34題	第35題	第36題	第37題	第38題	第39題	第40題
答案	A	A	D	C	A	D	B	B	A	D

題號	第41題	第42題	第43題	第44題	第45題	第46題	第47題	第48題	第49題	第50題
答案	A	A	B	C	B	B	C	D	A	C

題號	第51題	第52題	第53題	第54題	第55題	第56題	第57題	第58題	第59題	第60題
答案	A	C	B	D	C	C	D	C	C	#

題號	第61題	第62題	第63題	第64題	第65題	第66題	第67題	第68題	第69題	第70題
答案										

題號	第71題	第72題	第73題	第74題	第75題	第76題	第77題	第78題	第79題	第80題
答案										

題號	第81題	第82題	第83題	第84題	第85題	第86題	第87題	第88題	第89題	第90題
答案										

題號	第91題	第92題	第93題	第94題	第95題	第96題	第97題	第98題	第99題	第100題
答案										

備　　註：第60題答Ｂ給分。

代號：50160-50560
50760-50860
51060
51260-51360
頁次：3－1

108年公務人員特種考試警察人員、一般警察人員考試及108年特種考試交通事業鐵路人員、退除役軍人轉任公務人員考試試題

考 試 別：警察人員考試
等　　別：三等考試
類 科 別：行政警察人員、外事警察人員（選試英語）、刑事警察人員、公共安全人員、犯罪防治人員預防組、交通警察人員交通組、警察資訊管理人員、國境警察人員、警察法制人員、行政管理人員
科　　目：警察法規（包括警察法、行政執行法、社會秩序維護法、警械使用條例、集會遊行法、警察職權行使法、公務人員行政中立法）
考試時間：2 小時　　座號：＿＿＿＿＿＿

※注意：禁止使用電子計算器。

甲、申論題部分：（50 分）

㈠不必抄題，作答時請將試題題號及答案依照順序寫在申論試卷上，於本試題上作答者，不予計分。
㈡請以藍、黑色鋼筆或原子筆在申論試卷上作答。
㈢本科目除專門名詞或數理公式外，應使用本國文字作答。

一、某宗教團體甲，主張極端宗教言論，認為世界末日即將到來，舉辦各項活動討論並發表言論，強調其真實性，造成人心惶惶，該團體並計劃舉辦世界末日大遊行，向該轄集會遊行之主管機關警察分局乙，申請於某日在某地舉辦室外集會遊行，在此乙若認為甲舉辦之集會遊行，應不予許可或者即使許可，亦應有所限制。㈠請問室外集會遊行不予許可之情形以及許可限制事項為何？請綜合論述之。（15 分）㈡另主管機關乙在適用法規之涵攝過程，針對不確定法律概念，係採取何項法理，其概念為何，請論述之。（10 分）

二、甲市政府近幾年來工商業發達，人口增加迅速，生活富裕，然而貧富差距加大卻治安日漸敗壞，尤其甲市所轄各大公園廁所以及涼亭常成為群眾聚集之處所，並常有犯罪案件發生，故為預防犯罪，甲市政府要求警察局乙，能在各大公園廣設監視錄影器，警察局乙承接市府指令，擬在各大公園廁所與涼亭實施設置，並擬派人在附近蒐集資料。㈠請問警察局乙設置與蒐集資料之法律依據為何，並論述其內容為何？（15 分）㈡然而在此公園活動人民，包括廣大市民等，其是否可主張生活隱私受到公權力之監視，請以司法院大法官解釋之基本人權等觀點論述，此公權力措施與基本人權之衝突與關係。（10 分）

乙、測驗題部分：（50 分）　　代號：6501

㈠本測驗試題為單一選擇題，請選出一個正確或最適當的答案，複選作答者，該題不予計分。
㈡共 25 題，每題 2 分，須用2B鉛筆在試卡上依題號清楚劃記，於本試題或申論試卷上作答者，不予計分。

1　依行政執行法第 13 條規定，移送機關於移送行政執行處執行時，應檢附法定相關文件，下列何者非必然應檢附之文件？
(A)移送書
(B)義務人之財產目錄
(C)義務人經限期履行而逾期仍不履行之證明文件
(D)處分文書、裁定書或義務人依法令負有義務之證明文件

2 行政執行處或義務人不服法院關於拘提、管收之裁定者，得至遲於幾日內提起抗告？
(A) 5 日　(B) 10 日　(C) 20 日　(D) 30 日

3 下列有關公務人員行政中立法及其施行細則之敘述，何者正確？
(A)所稱政黨，指依政黨法規定經許可設立之政治團體
(B)所稱公開為公職候選人遊行，指參與公職候選人所帶領之遊行
(C)所稱政治團體，指依人民團體法規定經許可設立之政治團體
(D)所稱擬參選人，依人民團體法第 2 條規定認定之

4 行政執行法施行細則由下列何者定之？
(A)法務部　(B)內政部　(C)行政執行署　(D)行政院

5 「駐衛警察使用警械管理辦法」係依據下列何種法律所制定？
(A)警察勤務條例　(B)警械使用條例　(C)警察職權行使法　(D)警察人員人事條例

6 下列各相關警察法規，何者屬於行政規則之性質？
(A)警察人員使用槍械規範　(B)沒入物品處分規則
(C)治安顧慮人口查訪辦法　(D)警械許可定製售賣持有管理辦法

7 警察職權行使法之立法目的，下列何者不屬之？
(A)維持公共秩序　(B)保護社會安全　(C)防止一切危害　(D)保障人民權益

8 下列何者屬於警察職權行使法第 2 條所稱之警察職權？
(A)進入住宅　(B)物之扣押　(C)人之管收　(D)警銬使用

9 下列司法院大法官釋字內容有關警察法規之敘述，何者正確？
(A)司法院釋字第 445 號指出人身自由為實施民主政治最重要的基本人權
(B)司法院釋字第 588 號指出憲法第 8 條所稱之「警察機關」，係僅指組織法上之形式「警察」之意
(C)司法院釋字第 626 號指出「中央警察大學九十一學年度研究所碩士班入學考試招生簡章」為警大招生事項之行政處分
(D)司法院釋字第 760 號指出「公務人員特種考試警察人員考試錄取人員訓練計畫」係針對考試筆試錄取之特定人所為之行政處分

10 司法院釋字第 718 號解釋文指出，集會遊行法第 8 條第 1 項規定，室外集會、遊行應向主管機關申請許可，未排除緊急性及偶發性集會、遊行部分，及同法第 9 條第 1 項但書與第 12 條第 2 項關於緊急性集會、遊行之申請許可規定，違反下列何種憲法原則？
(A)憲法第 7 條平等原則
(B)憲法第 23 條比例原則
(C)憲法第 22 條人格權保障原則
(D)憲法第 11 條表現自由保障原則

11 下列有關「偶發性及緊急性集會遊行處理原則」之敘述，何者正確？
(A)「偶發性及緊急性集會遊行處理原則」屬於法規命令之性質
(B)偶發性集會、遊行之申請，主管機關應於收受申請書即時核定
(C)偶發性集會、遊行係指因特殊原因未經召集而自發聚集，且事實上無發起人或負責人之集會、遊行
(D)偶發性集會、遊行係指因事起倉卒，且非即刻舉行無法達其目的之集會、遊行

12 現行社會秩序維護法授權訂定之相關法規命令，下列何者不屬之？
(A)沒入物品處分規則
(B)拘留所設置管理辦法
(C)違反社會秩序維護法案件處理辦法
(D)留置室設置管理辦法

13 依據社會秩序維護法之規定，無正當理由，跟追他人，經勸阻不聽者，處新臺幣 3000 元以下罰鍰或申誡。司法院釋字第 689 號解釋文指出：系爭規定以警察機關為裁罰機關，亦難謂與下列法律何種原則有違？
(A)正當法律程序原則　(B)比例原則　(C)明確性原則　(D)誠信原則

14 依據社會秩序維護法之規定，下列有關妨害善良風俗處罰之敘述，何者錯誤？
(A)從事性交易，處以罰鍰。但符合該法定之自治條例規定者，不適用之
(B)在公共場所或公眾得出入之場所，意圖與人性交易而拉客，處以罰鍰
(C)媒合性交易，處以拘留，併處罰鍰。但符合該法定之自治條例規定者，不適用之
(D)在公共場所或公眾得出入之場所，意圖媒合性交易而拉客，僅處以罰鍰

15 警察或執行機關對場所之進入，依據警察職權行使法與行政執行法規定，下列敘述何者錯誤？
(A)警察於合法進入之場所得實施查證身分
(B)警察得隨時進入公眾得出入之場所查證身分
(C)執行機關徵得義務人同意者，得於夜間執行之
(D)日間已開始執行者，得繼續至夜間

16 依警察職權行使法有關扣留之規定，下列敘述何者錯誤？
(A)期間原則上不得逾 30 日
(B)扣留物得變賣處理
(C)扣留及保管費用，由物之所有人、持有人或保管人負擔
(D)扣留物不得委託其他機關或私人保管

17 下列何者不符合現行「拘留所設置管理辦法」之規定？
(A)拘留所應有該管警察機關主管長官出具之入所通知單始得收容被拘留人
(B)欲攜帶未滿 3 歲之子女入所者，僅被拘留之婦女始得請求之
(C)被拘留人入、出所應通報勤務指揮中心
(D)被拘留人身分資料簿應按日陳報主管長官核閱

18 下列何種法律未明定其係依據「警察法」制定之？
(A)警察服制條例 (B)警察勤務條例 (C)警察教育條例 (D)警察人員人事條例

19 下列何者不屬警察法所稱之官規？
(A)獎懲與考績 (B)警察機關員額設置 (C)官職之任免 (D)職務等階

20 依據社會秩序維護法之規定，公司、有限合夥或商業之負責人、代表人、受雇人或其他從業人員，因執行業務而犯刑法上某些罪，經判決有期徒刑以上之刑者，得處該公司、有限合夥或商業勒令歇業，下列何者不屬之？
(A)妨害性自主罪 (B)妨害風化罪 (C)妨害自由罪 (D)妨害秘密罪

21 於非公共場所或非公眾得出入之職業賭博場所，賭博財物者，下列有關沒入事由何者錯誤？
(A)參賭者被查獲現場之賭資，沒入
(B)現場遺有衣物不問何人所有，沒入
(C)現場遺有電動賭具一台（查禁物），沒入
(D)屬於行為人所有者供違反本法行為所用之物，沒入

22 下列何者不屬於警械許可定製售賣持有管理辦法第 7 條向直轄市、縣（市）政府警察局申請許可購置之項目：
(A)電氣警棍（棒）（電擊器） (B)警棍
(C)警銬 (D)防暴網

23 某縣市警察分局，針對某一已經核可的集會遊行活動之廢止，下列何者不得作為廢止之理由：
(A)因天然災變
(B)有明顯事實足認為有危害國家安全、社會秩序或公共利益者
(C)為維持機關、學校等公共場所安寧
(D)重大事故

24 甲為網咖負責人，容留若干少年於深夜聚集其內，下列敘述何者錯誤？
(A)負責人不即時報告警察機關者，警察機關得裁處罰鍰
(B)負責人多次違反本條規定，得移請法院裁處勒令歇業
(C)本案因有多名少年聚集，負責人違規情節重大，得移請法院裁處停止營業
(D)負責人經營本店有賭博前科，不得作為本條勒令歇業的要件

25 某甲在公共場所或公眾得出入之場所，意圖媒合性交易而拉客，被警乙查獲移送簡易庭，該庭作成不處罰之裁定，對該裁定警乙得如何處置？
(A)訴願 (B)抗告 (C)不得不服 (D)聲明異議

測驗題標準答案更正

考試名稱：108年公務人員特種考試警察人員、一般警察人員考試及108年特種考試交通事業鐵路人員、退除役軍人轉任公務人員考試

類科名稱：行政警察人員、外事警察人員（選試英語）、刑事警察人員、公共安全人員、犯罪防治人員預防組、交通警察人員交通組、警察資訊管理人員、國境警察人員、警察法制人員、行政管理人員

科目名稱：警察法規(包括警察法、行政執行法、社會秩序維護法、警械使用條例、集會遊行法、警察職權行使法、公務人員行政中立法)

單選題數：25題　　單選每題配分：2.00分

複選題數：　　複選每題配分：

標準答案：答案標註#者，表該題有更正答案，其更正內容詳見備註。

題號	第1題	第2題	第3題	第4題	第5題	第6題	第7題	第8題	第9題	第10題
答案	B	B	C	D	B	A	C	A	D	B

題號	第11題	第12題	第13題	第14題	第15題	第16題	第17題	第18題	第19題	第20題
答案	C	D	A	D	B	D	B	A	B	A

題號	第21題	第22題	第23題	第24題	第25題	第26題	第27題	第28題	第29題	第30題
答案	B	C	C	#	B					

題號	第31題	第32題	第33題	第34題	第35題	第36題	第37題	第38題	第39題	第40題
答案										

題號	第41題	第42題	第43題	第44題	第45題	第46題	第47題	第48題	第49題	第50題
答案										

題號	第51題	第52題	第53題	第54題	第55題	第56題	第57題	第58題	第59題	第60題
答案										

題號	第61題	第62題	第63題	第64題	第65題	第66題	第67題	第68題	第69題	第70題
答案										

題號	第71題	第72題	第73題	第74題	第75題	第76題	第77題	第78題	第79題	第80題
答案										

題號	第81題	第82題	第83題	第84題	第85題	第86題	第87題	第88題	第89題	第90題
答案										

題號	第91題	第92題	第93題	第94題	第95題	第96題	第97題	第98題	第99題	第100題
答案										

備　　註：第24題一律給分。

代號：50120-50520
50720-51020
51220-51320
頁次：4－1

108年公務人員特種考試警察人員、一般警察人員考試及108年特種考試交通事業鐵路人員、退除役軍人轉任公務人員考試試題

考 試 別：警察人員考試
等　　別：三等考試
類 科 別：行政警察人員、外事警察人員（選試英語）、刑事警察人員、公共安全人員、犯罪防治人員預防組、交通警察人員交通組、警察資訊管理人員、刑事鑑識人員、國境警察人員、警察法制人員、行政管理人員
科　　目：警察情境實務（包括警察法規、實務操作標準作業程序、人權保障與正當法律程序）
考試時間：2小時　　座號：＿＿＿＿＿＿

※注意：禁止使用電子計算器。

甲、申論題部分：（60分）
㈠不必抄題，作答時請將試題題號及答案依照順序寫在申論試卷上，於本試題上作答者，不予計分。
㈡請以藍、黑色鋼筆或原子筆在申論試卷上作答。
㈢本科目除專門名詞或數理公式外，應使用本國文字作答。

一、立委候選人甲舉辦問政說明會，台下聽眾約500人，突有支持乙候選人之群眾約 50 人在現場鼓噪，企圖擾亂會場秩序，場面甚為混亂且已有零星衝突發生；你是現場指揮官，應如何處置？（20分）

二、你持法官簽發之搜索票到甲家中搜索，搜索票記載應搜索之犯罪嫌疑人為甲，應扣押物為安非他命及其他毒品、分裝與施用器具，應加搜索之處所為甲之住屋全部。你抵達甲住屋執行搜索時，發生下列情況將如何處理？並說明理由。
㈠你尚未出示搜索票，甲見警到來即往屋內跑。（6分）
㈡搜索當中，甲的兒子乙表示要出門去上班，同時又有訪客丙到來。（7分）
㈢你發現甲的女兒丁右褲袋鼓起，懷疑其右褲袋內藏有應扣押物。（7分）

三、你帶班執行巡邏勤務時，於設有固定地磅處所1公里內路段，發現甲駕駛之砂石車，疑似有超載砂石，經指示甲停車接受稽查時：
㈠若甲不服從稽查停車而棄車逃逸，此時你應如何處置？（10分）
㈡若甲停車受檢，經查行車執照核定總重量為 35 公噸，於過磅後總載重量達41.5公噸，你應如何舉發違規行為？（10分）

乙、測驗題部分：（40分）　　代號：2501
㈠本測驗試題為單一選擇題，請選出一個正確或最適當的答案，複選作答者，該題不予計分。
㈡共20題，每題2分，須用2B鉛筆在試卡上依題號清楚劃記，於本試題或申論試卷上作答者，不予計分。

1 你是派出所所長，值班員警受理民眾報案，稱有一卡車在附近農地傾倒廢棄物，你應指示員警作何處置？
(A)告知報案人該案件警察機關無管轄權，請其向有管轄權之機關報案
(B)基於服務精神，應代為查明管轄機關後，請其向有管轄權之機關報案
(C)應即通報或移送有管轄權之機關處理，並告知報案人
(D)基於單一窗口作業，一律受理報案，俟函送地檢署後再由檢察官分案

2 警員甲值班時，民眾乙前來派出所報案，稱在家中遭配偶毆打，並出具遭毆打之驗傷單，乙表示僅要控告配偶傷害罪；你是所長，本案你指導甲除受理傷害部分外，尚應如何處置？
(A)須填寫「家庭暴力事件通報表」，但須徵求乙同意
(B)須填寫「家庭暴力事件通報表」，無須徵求乙同意
(C)無須填寫「家庭暴力事件通報表」，但須詳載筆錄
(D)無須填寫「家庭暴力事件通報表」，填註工作紀錄簿備查

3 警員甲實施警勤區訪查治安顧慮人口乙時，乙拒絕甲進入其住宅內訪查，甲詢問所長你，如何處置最適當？
(A)得依刑法妨害公務罪現行犯，將乙逮捕
(B)得經分局長核准後，逕行進入訪查
(C)得經警察局長核准後，逕行進入訪查
(D)委婉說明來意，但不得逕行進入訪查

4 甲因欠乙 3 萬元債務無力償還，乃與乙商議共赴飯店住一晚以免除債務，二人於飯店房間內完成性行為即遭警方查獲。你是分局承辦巡官，依社會秩序維護法現行規定，就甲、乙之行為應如何處罰？
(A)甲、乙二人係合意行為，均不罰
(B)甲、乙二人均由警察分局處新臺幣 3 萬元以下罰鍰
(C)甲由警察分局處新臺幣 3 萬元以下罰鍰，乙則不罰
(D)甲不罰，乙則由警察分局處新臺幣 3 萬元以下罰鍰

5 你是偵查隊分隊長，轄區發生了一輛自小客車撞擊多部摩托車，造成三死三傷，肇事車輛車前明顯受到重擊而受損，也造成安全氣囊開啟，車內三人均已下車。現場目擊證人指認的駕駛，與自稱是肇事車輛的駕駛人不符，疑有頂罪情事，另證人稱當時有聞到酒味。你處理本案最優先事項為何？
(A)立即採集車內的證物，以利釐清肇事責任
(B)可能形成重大新聞事件，立即處理新聞
(C)立即查明當時在車內的相關人員身分，並進行酒測
(D)立即派人到醫院詢問被害人

6 派出所接獲報案稱甲在轄區某路口鬧事，你立即率一名警員前往處理，抵達現場盤查甲時，他突然出拳襲擊你的同仁，並搶走警棍攻擊他的頭部，血流如注，甲仍有繼續攻擊之意，下列處置何項最不適當？
(A)因同仁遭受暴力攻擊，得使用警械制止
(B)依妨害公務或傷害罪之現行犯加以逮捕
(C)立即救護同仁，並呼叫救護車
(D)迅速將同仁帶離現場，減少傷害

7 警員甲開警車追捕逃犯乙，乙倉惶開車逃離約 50 公尺，撞到丙開的車致其車輛損壞，事後丙知道是甲追逐乙才會造成乙撞到丙車，乃到派出所要向所長討公道，你是所長，應如何告訴丙最為適當？
(A)向乙請求民事損害賠償，也可依法請求國家賠償或補償
(B)會責請警員甲賠償其損害
(C)可依犯罪被害人保護法請求國家補償
(D)乙才是直接加害人，所以其損害與警察無關

8 你是派出所所長，晚間巡邏時見路邊一輛轎車不斷冒出白煙，上前盤查後發現車上一男一女精神恍惚，女子說自己身體不舒服，此時，你最優先的處置為何？
(A)先通報救護車
(B)帶到勤務處所調查
(C)通知其家人到場協助處理
(D)查證其身分及檢視車內

9 你帶隊執行路檢勤務，對甲進行身分查證，甲不同意表明身分，並當場陳述理由，表示異議。你認為甲陳述無理由，並繼續執行身分查證；此時甲又強烈表示不服，並請求給予紀錄，下列何種處置最適當？
(A)向甲再次說明其陳述無理由，並繼續執行身分查證，不需理會其任何之請求
(B)雖認為甲陳述無理由，但經其再次強力表示不服，為保障人權，立即停止執行身分查證
(C)填具「警察行使職權民眾異議紀錄表」交甲收執，並繼續執行身分查證
(D)填具「警察行使職權民眾異議紀錄表」交甲收執，且停止執行身分查證

10 勤務指揮中心通報轄內發生 A1 交通事故，你帶領同仁抵達現場時，發現死者一名，並有多人正在爭吵鬥毆，下列處置何種最優先？
(A)立即查證現場爭吵鬥毆民眾身分
(B)通報快打警力支援，防止鬥毆民眾傷害擴大
(C)先做好現場警戒措施，以保全現場
(D)先查明死者身分，並防止死者身體被碰撞

11 你帶隊執行臨檢勤務，發現一輛自小客車行駛偏離常軌，時有加速、突停之情況，駕駛行為顯有不穩，將其攔停後，駕駛人甲吐氣酒測值為 0mg/L，且未在車內發現疑似毒品或施用毒品器具，下列處置方式何者不適當？
(A)如甲坦承駕車前有施用毒品，依準現行犯逮捕
(B)如甲否認駕車前有施用毒品，且不同意接受尿液採驗時，得依準現行犯逮捕
(C)如甲否認駕車前有施用毒品，且同意接受尿液採驗時，帶返駐地製作警詢筆錄及採集尿液後放行
(D)為保護甲的安全，必要時得依警察職權行使法規定管束之

12 甲女的臉書遭到不明人士傳送 100 多則示愛訊息，內容強調自己性能力驚人，並欲餽贈現金與其發生性關係等，甲女遂向派出所報案，下列處理何者最不適當？
(A)受理本案，符合性騷擾防治法第 2 條一般性騷擾案件
(B)在隱密安全處詢問甲女，且過程一律全程錄影（音）
(C)若本案加害人身分不明，應召開調查處理小組會議，審查性騷擾事件是否成立
(D)調查處理小組調查結果應副知婦幼警察隊

13 派出所同仁於事故現場，通知你前往協助處理甲駕車自撞路邊電線桿，該車輛已反彈至道路上，甲仍坐於車內，且從其身上聞到濃濃之酒氣，下列處置何者最優先？
(A)詢問甲飲酒結束時間，超過 15 分鐘以上，立即實施酒測
(B)查看該車輛受損情形，以判斷自撞原因
(C)確認事故現場安全警戒措施是否完備
(D)了解事故現場跡證之蒐證測繪及照相工作是否完整

14 民眾報案，果園旁發現一名下身赤裸女童，身上有多處血跡，意識不清，你是該轄區派出所所長，率員抵達現場時，該女童已被送往醫院急救。下列何種處置最不適當？
(A)通報分局勤務指揮中心及分局長
(B)詢問被害人身分，通知家屬
(C)通報分局偵查隊及性侵害專責人員
(D)逕行現場採證

15 甲、乙因超車不當險擦撞，雙方一言不和發生扭打，甲持木棍攻擊乙，致乙血流滿面，有明顯撕裂傷，甲遂拋下木棍駕車離去。你接獲通報趕赴現場處理，乙向你陳述事發經過，並提供甲駕駛之車號，下列何項處置最為優先？
(A)告知乙至派出所提傷害告訴，立即鳴警笛追捕甲
(B)先將乙送醫救治，再派員至醫院製作告訴筆錄
(C)現場受理報案、填寫紀錄表後，將乙護送至管轄派出所提起傷害告訴
(D)維持刑案現場完整，俟派出所及鑑識小組到場後，將乙移交處理

16 轄區內發生槍擊案件，在車內座椅中取出彈頭一顆，在彈頭上面發現微物。專案小組為了要重建彈道的順序，下列那一項最無關？
(A)玻璃粉末 (B)血跡 (C)彈頭上的來福線特徵 (D)衣物纖維

17 大貨車與機車於路口發生事故，你到達現場後發現機車騎士當場傷重不治，對於肇事大貨車應如何處置？
(A)請司機將車移至安全處所，自行保管 (B)將車暫移置保管場，通知車主逕行領回
(C)將車扣押，於司機製作筆錄後領回 (D)將車暫時扣留，依蒐證程序處理

18 你帶班執行路檢勤務，攔停甲駕駛之汽車，你聞到異味，並於右駕駛座發現一包塑膠袋裝之白色粉狀物，甲宣稱該包為太白粉，此時你如何處理最適當？
(A)以手指沾少許粉末放入口中，嘗試其味道，以辨別是否為毒品
(B)目視觀察粉末顏色、顆粒大小及形狀，以查明甲陳述之真偽
(C)使用毒品檢驗試劑，進行呈色試驗，以初步鑑定是否為毒品
(D)直接逮捕甲，並查扣白色粉末送鑑定

19 你擔任國道交通分隊長，於執行稽查載運危險物品車輛之勤前教育時，對員警說明執勤時注意事項，下列何者不適當？
(A)指揮受檢車輛停於路肩或避車彎內，車身萬不可延伸至車道上
(B)巡邏車停於受檢車輛後方，而非前方，並宜保持 10 公尺以上之距離
(C)檢查載運車輛時，應站在輪胎旁邊，並敲打確認胎壓充足
(D)人員不可站立於車道上，並參考布質三角紅旗之風向，站立於上風處

20 你是派出所所長，處理各項集會遊行專案勤務時，有關媒體處理狀況與安維處置，下列作為何者不適當？
(A)對於媒體的不實報導，各相關警察局應遵循主官、業務及勤指三線系統層報，經署長核定後予以澄清
(B)遇有因勤務作為可能影響民眾權益事項，應即透過各種傳播媒體管道，加強宣導，有效降低民怨，爭取支持
(C)配合被陳抗機關事先規劃適當採訪地點，並請媒體記者佩掛識別標誌，確保媒體採訪權益及安全
(D)如需執行強力排除時，應先隔離媒體，避免混雜抗爭團體之間，影響執行驅離成效或導致媒體人員受傷

測驗式試題標準答案

考試名稱：108年公務人員特種考試警察人員、一般警察人員考試及108年特種考試交通事業鐵路人員、退除役軍人轉任公務人員考試

類科名稱：外事警察人員（選試英語）、警察資訊管理人員、刑事警察人員、警察法制人員、行政警察人員、國境警察人員、行政管理人員、刑事鑑識人員、公共安全人員、交通警察人員交通組、犯罪防治人員預防組

科目名稱：警察情境實務(包括警察法規、實務操作標準作業程序、人權保障與正當法律程序)（試題代號：2501）

單選題數：20題　　單選每題配分：2.00分

複選題數：　　複選每題配分：

標準答案：

題號	第1題	第2題	第3題	第4題	第5題	第6題	第7題	第8題	第9題	第10題
答案	C	B	D	B	C	D	A	D	C	C

題號	第11題	第12題	第13題	第14題	第15題	第16題	第17題	第18題	第19題	第20題
答案	B	B	C	D	B	C	D	C	C	A

題號	第21題	第22題	第23題	第24題	第25題	第26題	第27題	第28題	第29題	第30題
答案										

題號	第31題	第32題	第33題	第34題	第35題	第36題	第37題	第38題	第39題	第40題
答案										

題號	第41題	第42題	第43題	第44題	第45題	第46題	第47題	第48題	第49題	第50題
答案										

題號	第51題	第52題	第53題	第54題	第55題	第56題	第57題	第58題	第59題	第60題
答案										

題號	第61題	第62題	第63題	第64題	第65題	第66題	第67題	第68題	第69題	第70題
答案										

題號	第71題	第72題	第73題	第74題	第75題	第76題	第77題	第78題	第79題	第80題
答案										

題號	第81題	第82題	第83題	第84題	第85題	第86題	第87題	第88題	第89題	第90題
答案										

題號	第91題	第92題	第93題	第94題	第95題	第96題	第97題	第98題	第99題	第100題
答案										

備　　註：